EXAMEN DEL SEGUNDO TRIMESTRE

PRIMER GRADO

Nombre del alumno: _____

Grado: _____ **Grupo:** _____

Nombre de la escuela: _____



Asignatura	Reactivos	Aciertos	Calificación	Firma del padre o tutor
Lengua Materna	20			
Matemáticas	30			
Conocimiento de medio	20			
Vida saludable	15			

LIVEWORKSHEETS
LIVEWORKSHEETS

MATEMÁTICAS

➢ **1.- Observa muy bien. Las bolsas tienen 10 dulces.** (Valor 2 puntos)



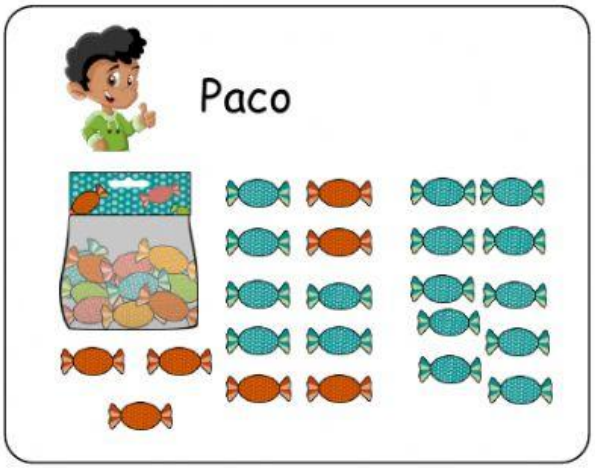

¿Quién tiene más dulces? _____

Carlos quiere tener 100 dulces, ¿Cuántos le faltan? _____

➢ **2.- Los siguientes niños guardaron sus canicas de la siguiente forma. Encuentra y encierra a los dos niños que tienen la misma cantidad de canicas.** (Valor 1 punto)

LIVEWORKSHEETS
LIVEWORKSHEETS

- **3.- Alicia tiene 100 canicas y las quiere guardar en bolsas. Si en una bolsa ya puso 70 canicas, ¿Cuántas canicas debe poner en la otra bolsa?**

- **4.- Cuenta el dinero que tiene Daniela.**

¿Cuánto dinero tiene Daniela? _____

¿Cuánto le falta para tener 100 pesos? _____

- **5.- Escribe los números del 1 al 4 para ordenar los objetos del más liviano al más pesado.** (Valor 1 punto)

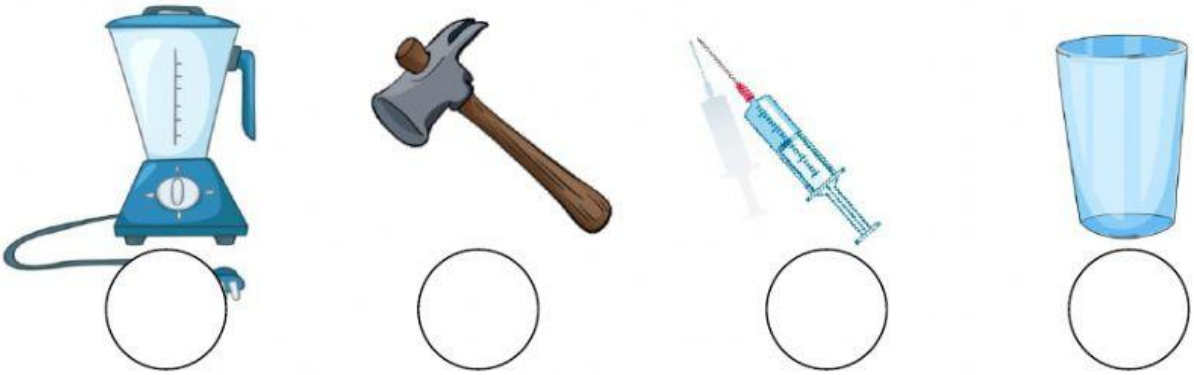

LIVEWORKSHEETS LIVEWORKSHEETS

LENGUA MATERNA

Lee el siguiente texto y después responde las preguntas de comprensión lectora.

Martin el pez

Martín es un pez, el es rojo y amarillo.
Le gusta nadar y reírse fuerte.
Martin puede mover las aletas muy rápido cuando nada en el mar.

- **1.- ¿Cómo se llama el pez?**
  _____
- **2.- ¿Qué hace el pez?**
  _____
- **3.- ¿En dónde vive Martin?**
  _____
- **5.- ¿Qué mueve Martin para nadar rápido?**
  _____



LIVEWORKSHEETS
LIVEWORKSHEETS

6-11. Une cada imagen con la palabra que le corresponde.



maleta

oso

lámpara

zanahoria

hormiga

león

12-13. Lee las siguientes calaveritas y subraya las palabras que riman.

La Catrina trajo manzanas
para todos en el salón
pero estaban envenenadas
y todos se fueron al panteón.

Mi maestra cada semana
mucha tarea dejaba.
Legó la muerte sonriente y
se la llevó velozmente.

14. Subraya las palabras que rimen.

En la casa de
Pincho
todos cuentan
hasta el ocho.

LIVEWORKSHEETS
LIVEWORKSHEETS

18. Colorea de verde los días que vas a la escuela y de rojo los que descansas.

Domingo	Lunes	Martes	Miércoles
Jueves	Viernes	Sábado	

19-20. Escribe un enunciado a los siguientes dibujos:

_____



_____

LIVEWORKSHEETS
LIVEWORKSHEETS

MATEMÁTICAS

1. **Escribe los números que faltan.**

1		3					8		
				15					
							28		
			34						
								49	
51									
						67			
				75					
	82								
			94						

2-5. Cuenta los puntos de los dados y escribe la cantidad.

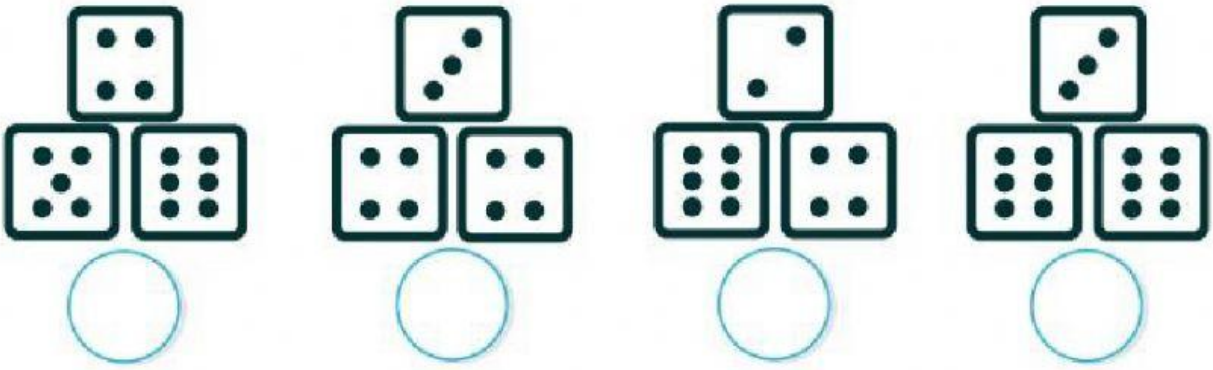

LIVEWORKSHEETS
LIVEWORKSHEETS

7. Pinta los animales domésticos.



8-12. Escribe los nombres de los días de la semana.

Lunes					Sábado	

13-15. Observa el croquis y completa la descripción.

David vive a la _____ de la panaderia. Enfrente de su casa hay una _____, En frente de la iglesia esta el parque y a la _____ del parque esta la escuela.

LIVEWORKSHEETS
LIVEWORKSHEETS

VIDA SALUDABLE

Marca con una palomita la respuesta correcta.

1. ¿Qué enfermedad respiratoria es causada por el **coronavirus**



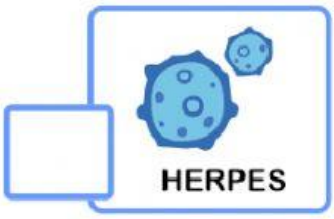

2-3. ¿Qué estrategias se han implementado para combatir el **Covid-19**?

QUEDATE EN CASA

VAMOS A VAILAR

SUSANA DISTANCIA

4-6. Marca con una ✓ s acciones útiles para prevenir el **Covid-19**

LAVARSE LAS MANOS

DESINFECTAR SUPERFICIES

SALIR A JUGAR

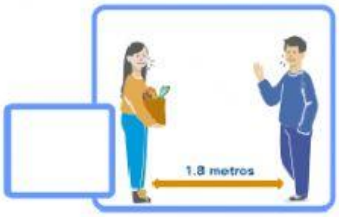

SANA DISTANCIA

SALUDAR DE MANO

USAR CUBREBOCAS

LIVEWORKSHEETS
LIVEWORKSHEETS