TEMATIK TEMA 6 "SEGITIGA"

SD Darul Hikam
Berakhlak Berprestasi

Nama :

Kelas :

28 Maret 2022

بِسْمِ اللَّهِ الرَّحْمَٰنِ الرَّحِيمِ

Pilihlah A, B, C, atau D pada Jawaban yang Benar!

1. Segitiga, persegi, lingkaran dan persegi panjang merupakan contoh bangun . . .

   a. ruang
   b. berdimensi
   c. datar
   d. dimensi tiga

2. Segitiga adalah bangun dengan . . . sisi.

   a. 2
   b. 3
   c. 4
   d. 5

3. Pada bangun segitiga mempunyai sudut sebanyak . . .

   a. 1
   b. 2
   c. 3
   d. 4

4. Segitiga yang mempunyai dua sisi yang sama panjang dan dua sudut sama besar disebut segitiga . . .

   a. segitiga tidak beraturan
   b. segitiga sama kaki
   c. segitiga siku-siku
   d. segitiga sama sisi

LIVEWORKSHEETS LIVEWORKSHEETS

5. Gambar bangun di bawah ini adalah gambar bangun . . .

   a. segitiga sama sisi

   b. Segitiga siku-siku

   c. Segitiga sama kaki

   d. Segitiga tidak beraturan

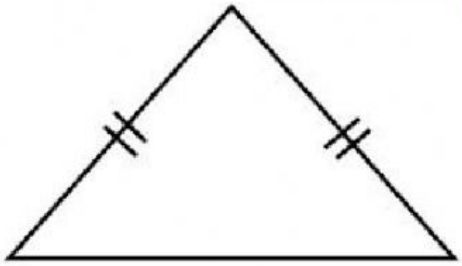

6. Segitiga yang tidak mempunyai sisi yang sama panjang dan memiliki sudut yang besarnya berbeda-beda adalah . . .

   a. segitiga sama kaki

   b. segitiga sama sisi

   c. segitiga siku-siku

   d. segitiga tidak beraturan

7. Nama bangun yang ketiga sisinya sama dan mempunyai 3 sudut sama besar adalah . . .

   a. segitiga sama sisi

   b. segitiga sama kaki

   c. segitiga siku-siku

   d. segitiga tidak beraturan

8. 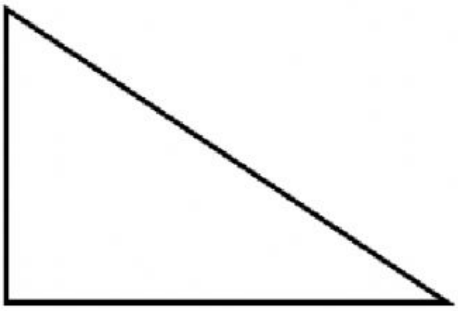

   Gambar di samping adalah gambar segitiga . . .

   a. lancip

   b. siku-siku

   c. sama sisi

   d. tidak beraturan

LIVEWORKSHEETS
LIVEWORKSHEETS

9. Segitiga sama kaki mempunyai sisi yang sama panjang sebanyak . . .

a. 2

b. 3

c. 4

d. 5

10. Gambar di bawah ini yang merupakan segitiga siku-siku adalah . . .

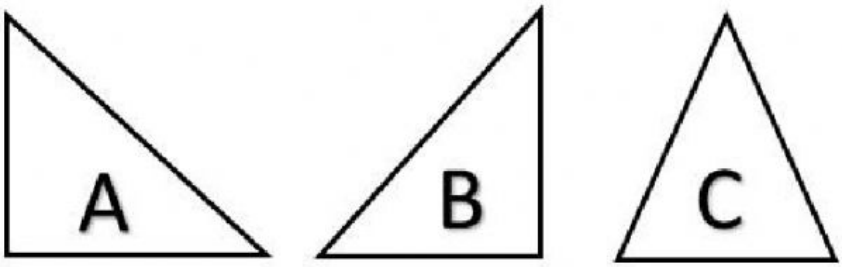

a. A dan C

b. B dan C

c. C dan A

d. A dan B

أَلْحَمْدُ لِلّٰهِ رَبِّ الْعٰلَمِيْنَ

LIVEWORKSHEETS LIVEWORKSHEETS