CICLO DE VIDA DE LOS SERES VIVOS

LEE CON ATENCIÓN Y RESPONDE

1.- MARCA CON UNA X LAS CASILLAS DE LOS SERES VIVOS.



2.- UNE CON UNA LÍNEA EL GRAFICO CON LA ETAPA DEL CICLO DE VIDA DE LAS PERSONAS.

Nacer | Crecer | Reproducir | Morir

3.- COLOCA LOS NÚMEROS DEL 1 AL 4 PARA ORDENAR EL CRECIMIENTO DE UNA PLANTA

4.- ORDENA CON LOS NÚMEROS DEL 1 AL 4 EL CICLO DE VIDA LA VACA.





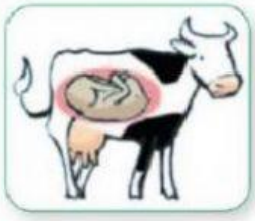

LIVEWORKSHEETS