Самостійна робота № 24

1 Підбери квітки, складаючи суму 10.

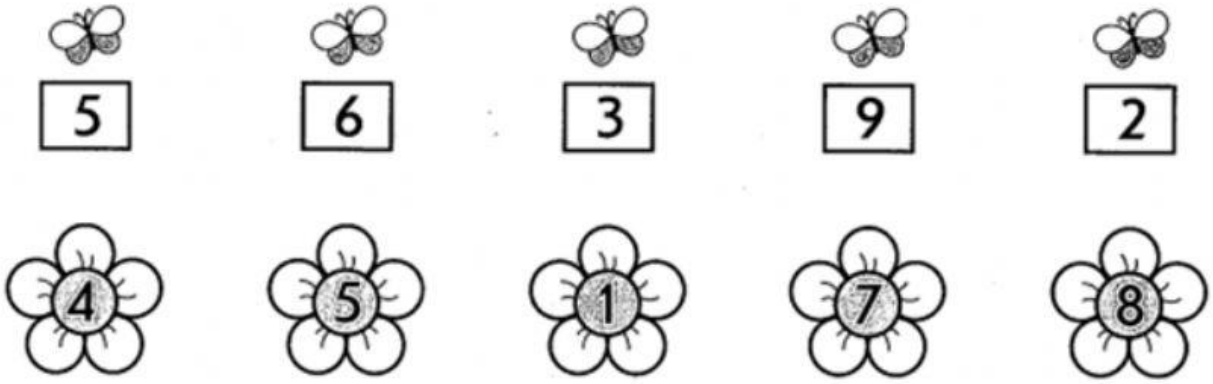

2 Богдан знайшов 7 підосичників і 3 білих гриба. З 5 грибів зварили суп, а решту посмажили. Скільки грибів посмажили?

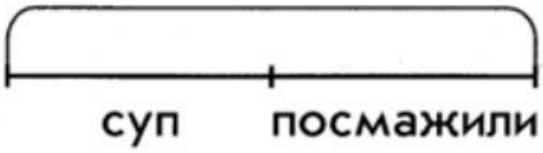

1)

2)

Відповідь:

3 Склади приклади за схемами.

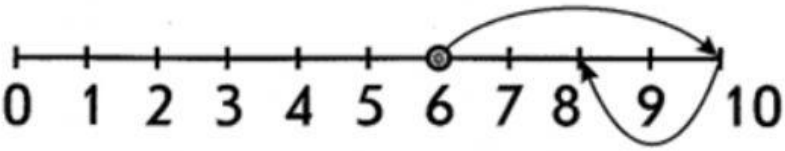

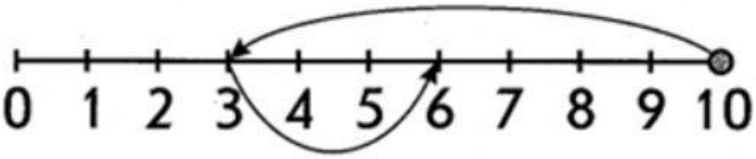

4 $1 + 4 + 5 - 4 = \square$ $\quad$ $2 + 8 - 3 + 2 = \square$

$10 - 1 - 3 + 4 = \square$ $\quad$ $0 + 7 + 3 - 10 = \square$

5★ Сашко знайшов у лісі 10 грибів. Із них 3 виявилися неїстівними. Скільки грибів треба викинути?

LIVEWORKSHEETS