ACTIVIDADES FINALES CCSS – UNIDAD 6.

EL PASO DEL TIEMPO.

1º Educación Primaria.

1. Lee y une como corresponda.

Futuro	**Lo que pasará después.**
Pasado	**Lo que está pasando ahora.**
Presente	**Lo que pasó antes.**

2. Ordena los días de la semana empezando por el lunes.

Domingo

Jueves

Lunes

Miércoles

Martes

Viernes

Sábado

3. Une como corresponda.

pasado

presente

4. Completa el texto con las palabras que faltan.

Un año tiene _____ meses y 365 _____.

Cada mes tiene 4 o 5 _____.

Una semana tiene _____ días.

5. Observa la imagen del calendario y contesta a las preguntas.

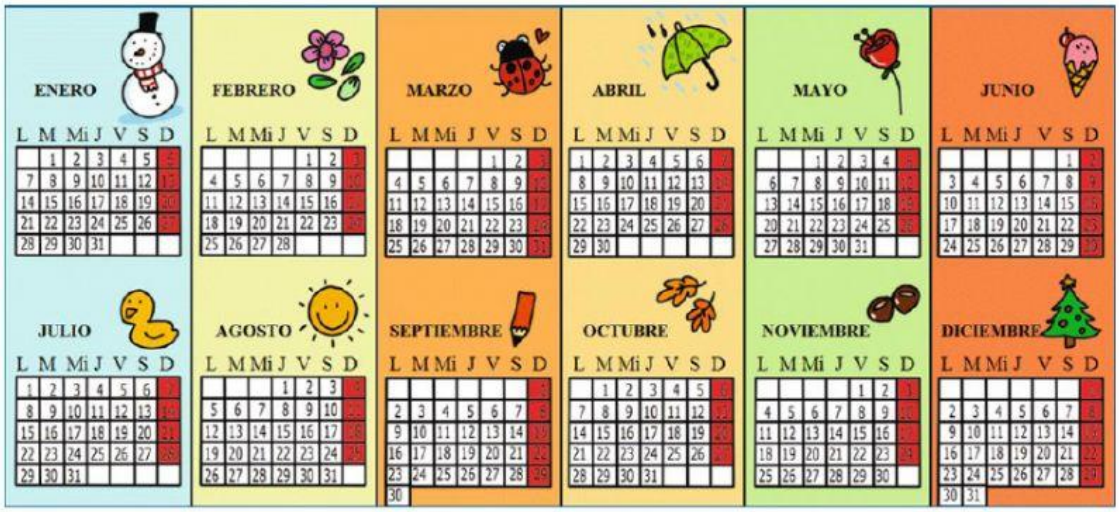

1. ¿Qué día es el 15 de febrero?

- [ ] Lunes
- [ ] Miércoles
- [ ] Viernes
- [ ] Domingo

2. ¿Cuántas semanas tiene el mes de mayo?

- [ ] 3
- [ ] 4
- [ ] 5
- [ ] 6

3. ¿Cuántos días tiene el mes de agosto?

- [ ] 28
- [ ] 30
- [ ] 31

4. ¿Cuál es el segundo mes del año?

- [ ] Marzo
- [ ] Febrero
- [ ] Enero
- [ ] Abril

6. Completa el árbol genealógico teniendo en cuenta las indicaciones.

Arrastra las imágenes para completar el árbol sabiendo que Carmen y Juan son abuelos de Blanca, Laura es su madre y Hugo es su hermano.

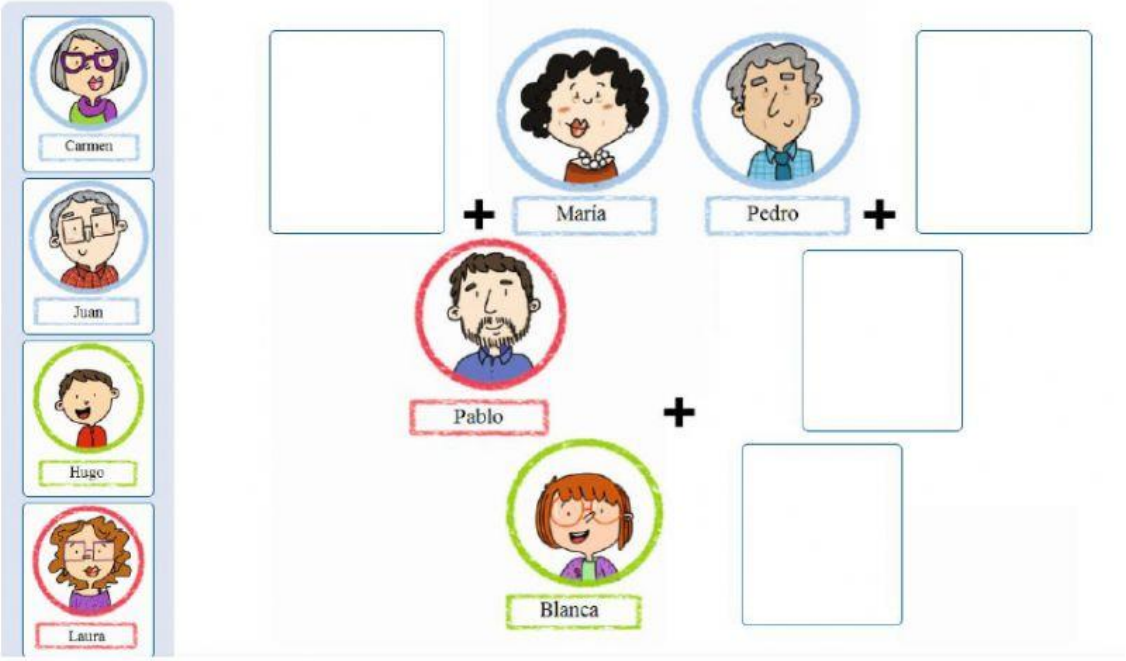

8. Relaciona cada objeto del presente con el del pasado.