ПОРІВНЮЄМО МАТЕМАТИЧНІ ВИРАЗИ

1 Порівняй математичні вирази за схемами.

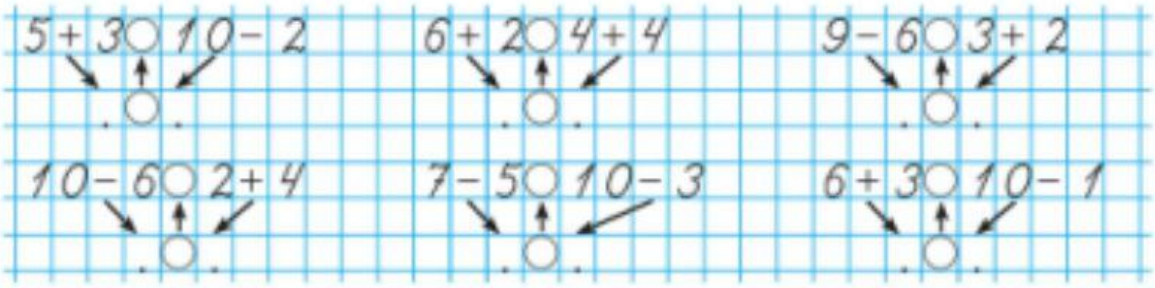

2 Закінчи виконання короткого запису. Розв'яжи задачу.

Вадим склав у шафу 10 машинок. 7 машинок він поставив на першу полицю, а решту — на другу. Скільки машинок поставив хлопчик на другу полицю?



3 Виконай порівняння за схемами. Склади подібні пари стовпчиків.

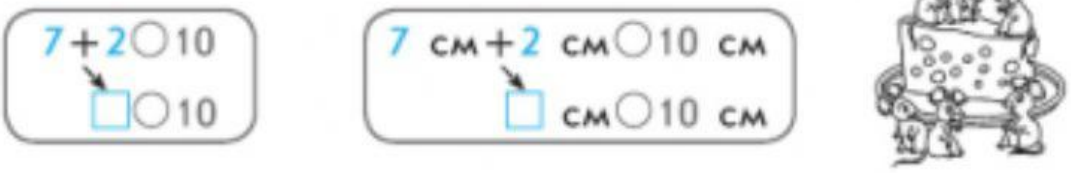

4 Знайди невідомі числа. Доповни таблицю.

Доданок	2		8		9		7	4	7
Доданок	7	6		7		6		5	
Сума		10	9	8	10	8	9		10

5 Наведи та домалюй.

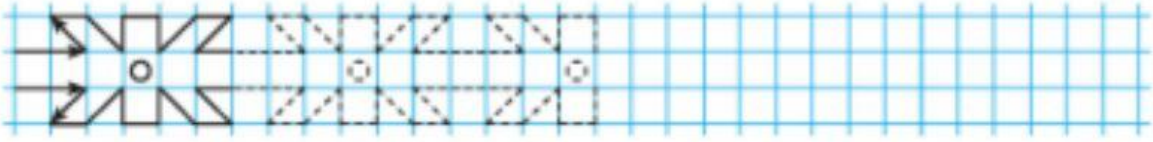

LIVEWORKSHEETS