# ESKALAK PLANOETAN ETA MAPETAN

Eskala 1:300 izanda, zein da etxebizitza honetako benetako luzera planoan 12 cm badira? Eta zabalera (planoan 6 cm badira)?

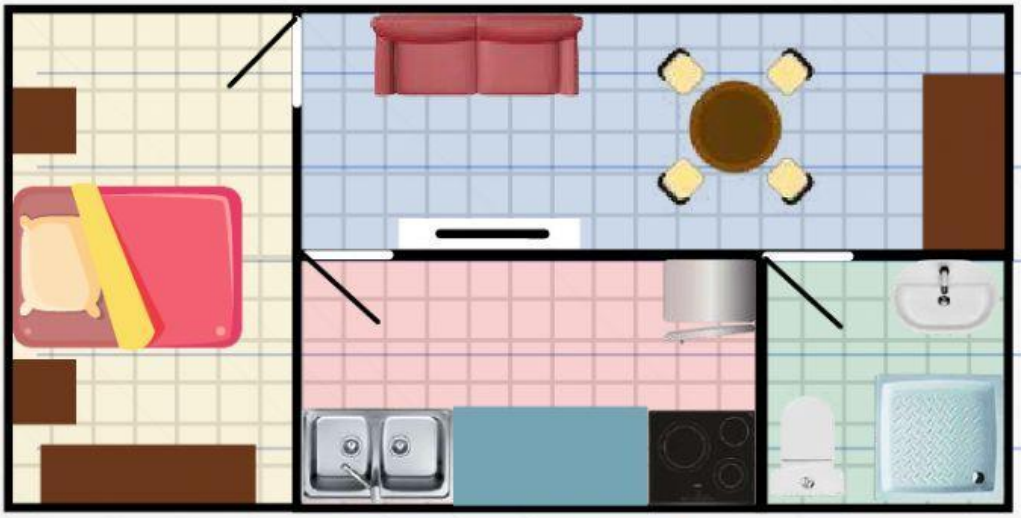

0 300 600 900

1 cm

Luzera: m

Zabalera: m

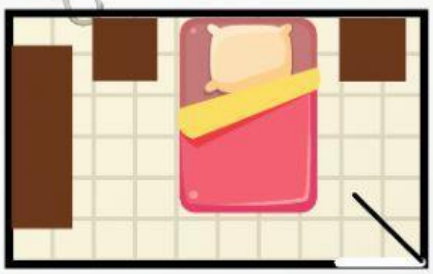

0 150 300 450

1 cm

Eskala 1:150 izanda, zein da gela honetako benetako luzera, planoan 5 cm badira? Eta zabalera, planoan 3 cm badira?

Luzera: m

Zabalera: m

LIVEWORKSHEETS

Altxorraren mapa honetan erabilitako eskala 1:200.000. Zein da benetako neurria mapa honetan 6 zentimetro badaude itsasargitik X-ra? Emaitza → km

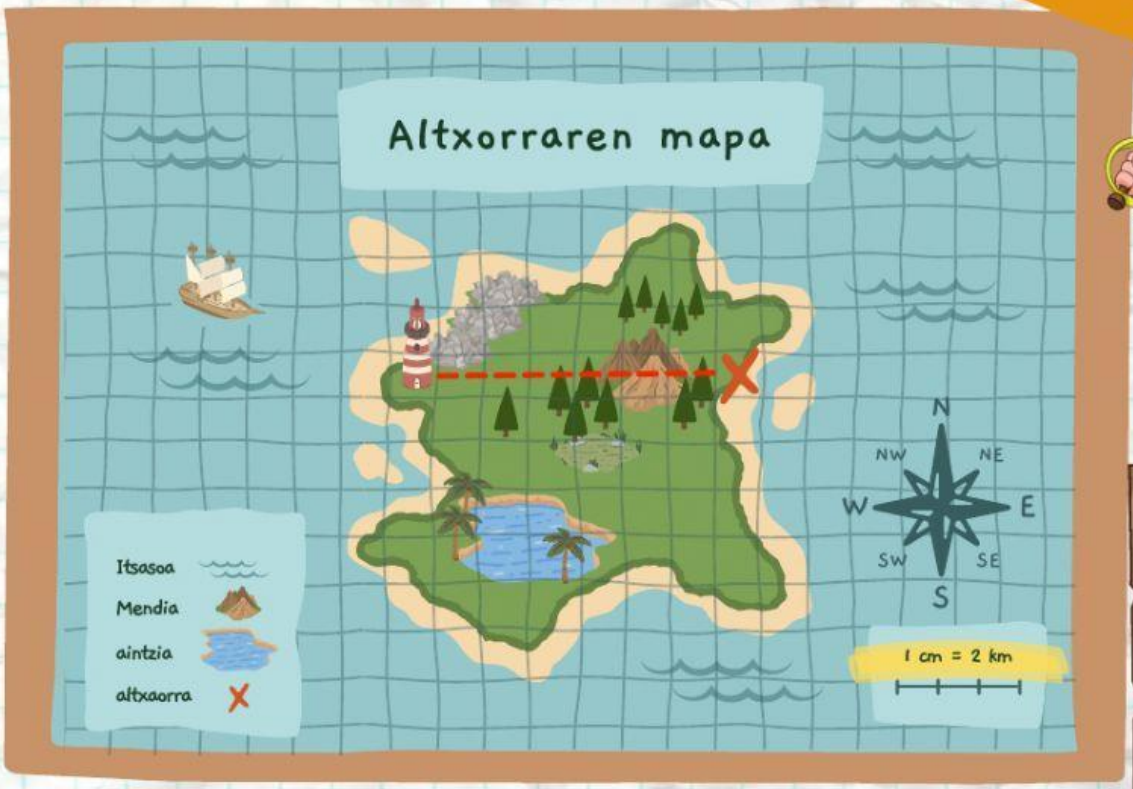

Eskala

1:200.000

Altxorraren mapa honetan erabilitako eskala 1:500.000 da. Zein da benetako neurria mapa honetan hurrengo ibilbidea egin badu. X-tik piraten ikurriñara 4 zentimetro; ikurriñatik itsasargira 7 zentimetro; eta itsasargitik altxorrara 8 zentimetro.

Emaitza: → km

Eskala

1:500.000

LIVEWORKSHEETS