AÑO LECTIVO 2021 - 2022	Deber de Matemática				kennedy
ASIGNATURA:	Matemática	Nº. UNIDAD:	Tercera	FECHA:	Marzo 2022
Nombre:		GRADO:	Sexto	OPORTUNIDADES:	20

1. Escuche, y escriba la cantidad en números

2. Lea las cantidades y escriba en el tablero posicional.

1. Dos mil quinientos veinte y cuatro enteros con cinco milésimas

2. Tecientos noventa y nueve enteros con veinte y dos centécimas

3. Cincuenta y ocho enteros con dos centécimas

	cm	dm	um	c	d	u		d	c	m
1										
2										
3										

3. Observe las cantidades y escriba en letras

1 348, 76

984, 003

12 679, 043

LIVEWORKSHEETS

4. Ubique las cantidades en el tablero posicional y realice la operación correspondiente.

234,90 - 12,76

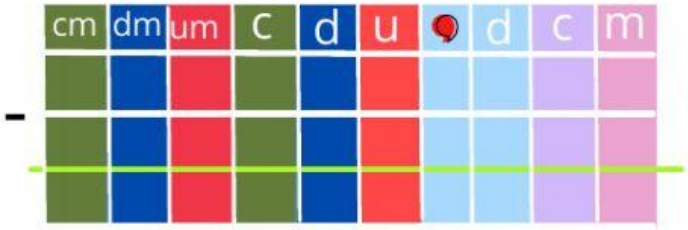

345 - 123,54

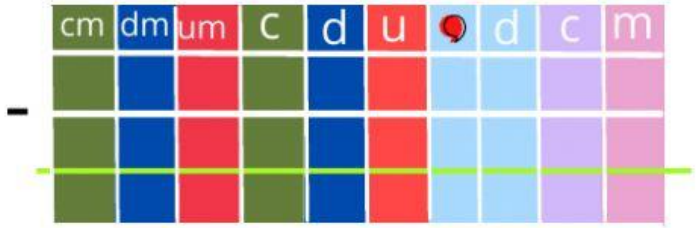

487, 56 + 345,16

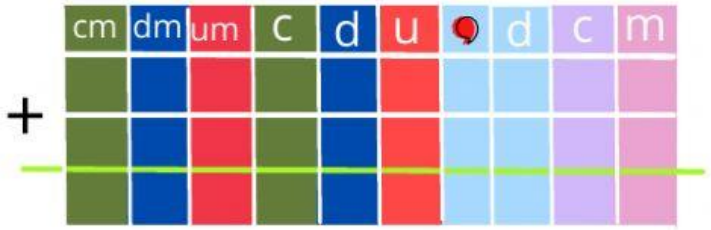

CTP Subnivel Básica Media
LIVEWORKSHEETS