EJERCICIO: Completa el siguiente esquema de los niveles de organización celular, según la información que acabas de leer.

Primer Nivel	Segundo nivel	Tercer nivel	Cuarto nivel	Quinto nivel
CÉLULAS				

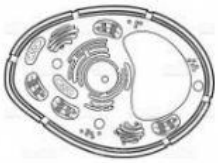



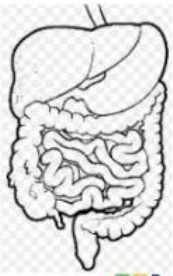

LIVEWORKSHEETS