ACTIVIDAD DE REPASO

1er Grado

Nombre Completo: _____

Grupo: _____ Fecha: _____

Escribe la respuesta correcta, si requieres realizar alguna operación la puedes hacer en tu cuaderno.

1. ¿cuál es el perímetro de la siguiente figura?

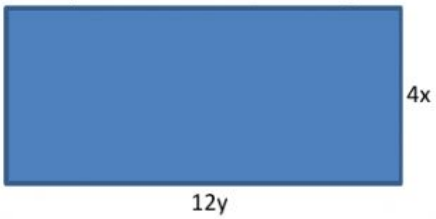

2. Calcula el perímetro de la siguiente figura.

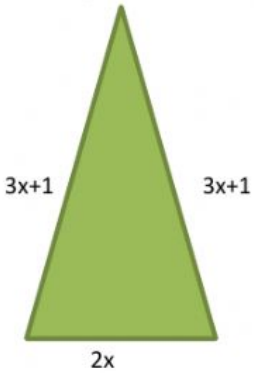

3. Calcula el perímetro de la siguiente figura.

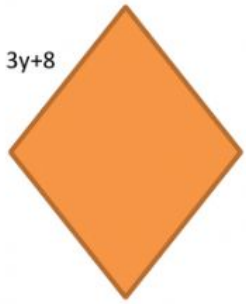

LIVEWORKSHEETS

4. ¿Cuál es el área de un cuadrado de 8cm de lado?

5. Calcula el área de un triángulo cuya base mide 6m y altura 10m

6. Determina el área de la siguiente figura

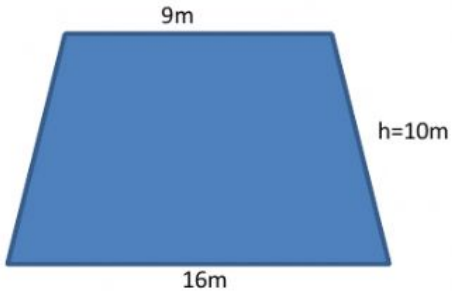

7. ¿cuál es el área de un rombo cuya diagonal mayor mide 6.2cm y diagonal menor mide 4.7cm?

8. ¿Cuál es la moda de la siguiente distribución: 10, 8, 8, 12, 12, 15, 9, 9, 12, 8, 8, 7 ,8 ,12?

9. Ernesto obtuvo las siguientes calificaciones en sus exámenes parciales: 8.6, 9.2, 9, 8.8, 10, ¿Cuál es el promedio obtenido por Ernesto?

10. Las estaturas de un grupo son las siguientes: 1.68, 1.66, 1.52, 1.72, 1.72, 1.68, ¿Cuál es el valor de la mediana?

LIVEWORKSHEETS