تقدير الحجم وقياسه

اسم الطالب:	الصف : /

أوجد حجم كل مجسم مما يأتي:



وحدة مكعبة



وحدة مكعبة



وحدة مكعبة

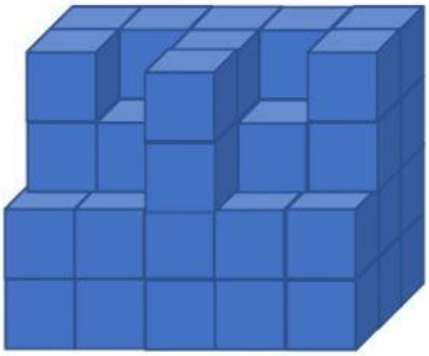

وحدة مكعبة

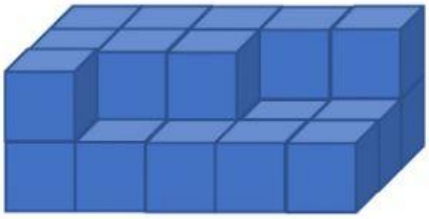

وحدة مكعبة

إعداد مدرس المادة :

أ. غـديـر البـري

LIVEWORKSHEETS