Hanoi Adelaide School

Họ và tên: ..... **Lớp:** .....

PHIẾU ĐÁNH GIÁ NĂNG LỰC TÍNH TOÁN

Nhiệm vụ hiệu suất chủ đề 10

"Làm thế nào để nhận biết các hình khối quanh ta?"

Nhận xét của giáo viên.....

.....

Phần 1. Giải quyết các vấn đề toán học

Bài 1. Quan sát hình dưới đây:

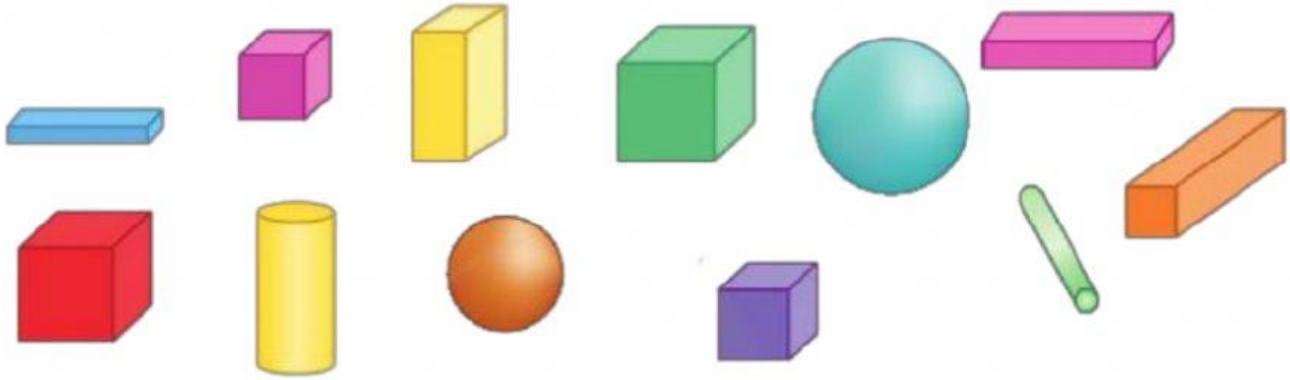

❖ **Hình trên có:**

- Khối hộp chữ nhật ☐
- Khối trụ ☐
- Khối lập phương ☐
- Khối cầu ☐

Bài 2. Quan sát các đồ vật dưới đây và cho biết đồ vật đó có dạng hình khối gì:

Khối lập phương | **Khối hộp chữ nhật** | **Khối trụ** | **Khối cầu**

LIVEWORKSHEETS

Bài 3. Quan sát và sắp xếp theo quy luật:

a)

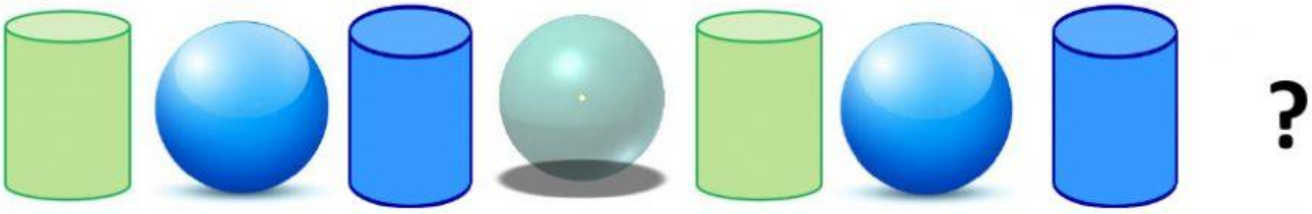

A. 

B.

C. 

D. 

b)



A.

B.

Bài 4. Điền từ thích hợp vào chỗ trống:

Các toàn nhà thường có dạng khối.....

Thân cây thường có dạng khối .....

Nhiều loại quả có dạng khối .....

LIVEWORKSHEETS

Phần 2. Lập luận và tư duy toán học

Bài 1. Mai đổ đầy nước vào bể cá có dạng khối trụ và khối hộp chữ nhật. Hỏi Mai đổ được tất cả bao nhiêu lít nước?

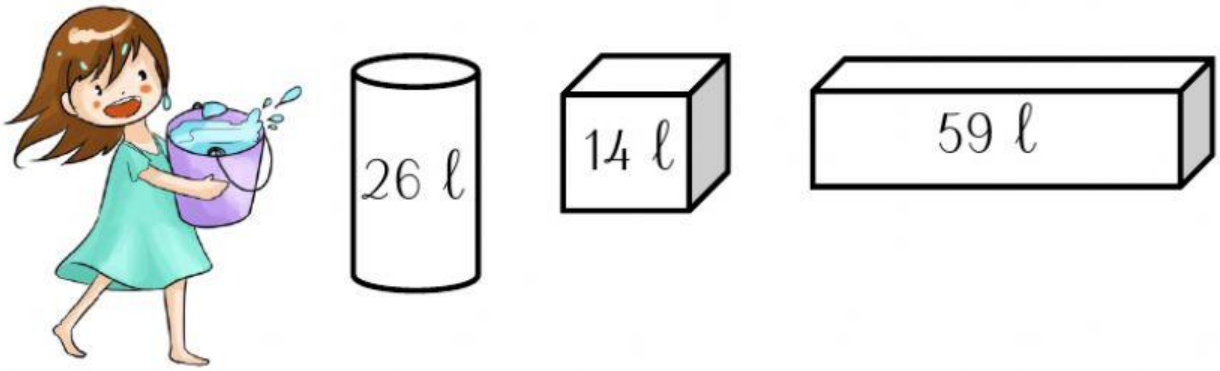

Bài giải

.....:

□□□ = □ (.....)

Đáp số: □ .....

LIVEWORKSHEETS