แบบทดสอบหลังเรียนเรื่องสถิติ

ชื่อ – นามสกุล.....ชั้น.....เลขที่.....

พิจารณาแผนภูมิแท่งเปรียบเทียบคะแนนสอบก่อนเรียนและหลังเรียนของเด็กหญิงพลอย

ในแต่ละวิชา ดังนี้

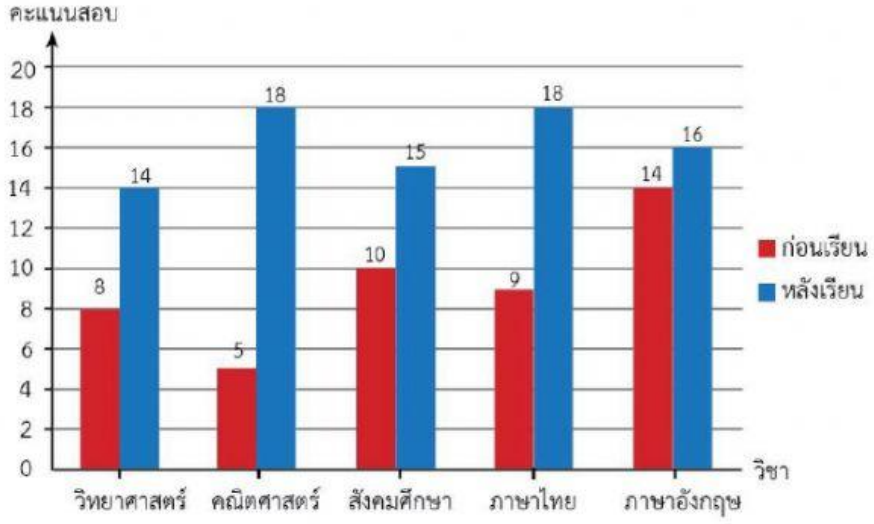

1) คะแนนสอบก่อนเรียนของวิชาวิทยาศาสตร์น้อยกว่าคะแนนสอบก่อนเรียนของวิชาภาษาไทยอยู่เท่าใด

ก. 1 คะแนน

ข. 2 คะแนน

ค. 4 คะแนน

ง. 6 คะแนน

LIVEWORKSHEETS

พิจารณากราฟเส้นแสดงจำนวนเงินรายรับและรายจ่ายในหนึ่งสัปดาห์ของเด็กชายภาสกร

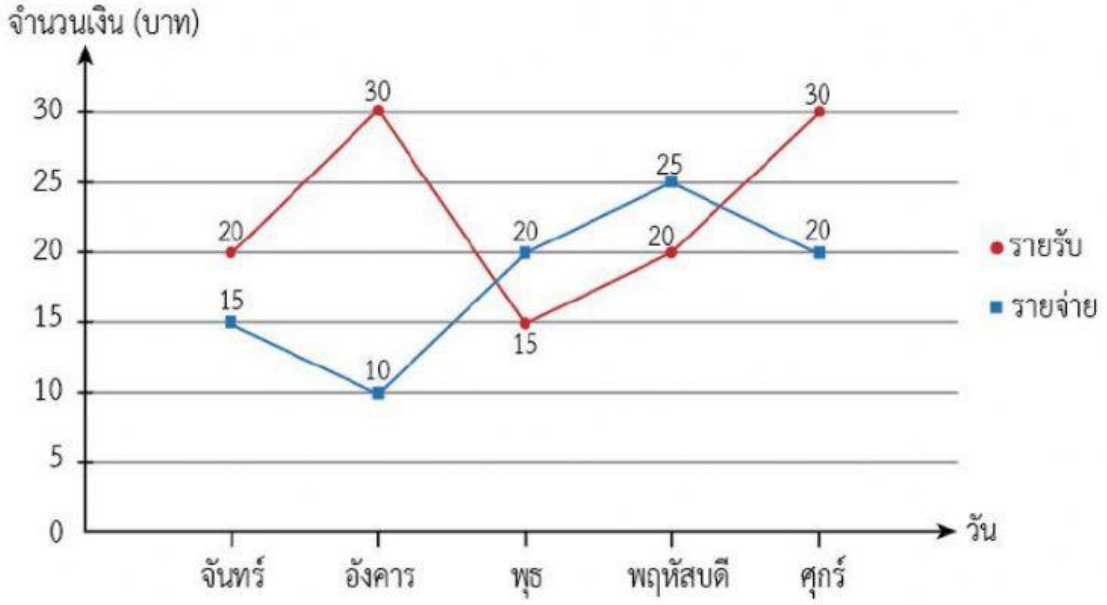

2) รายจ่ายในวันพฤหัสบดีมากกว่าวันอังคารเป็นเงินเท่าใด

ก. 5 บาท

ข. 10 บาท

ค. 15 บาท

ง. 20 บาท

แผนภูมิรูปวงกลมแสดงพื้นที่เพาะปลูกพืชชนิดต่างๆ ของเกษตรกรคนหนึ่ง ตอบคำถามข้อ 3 – 5

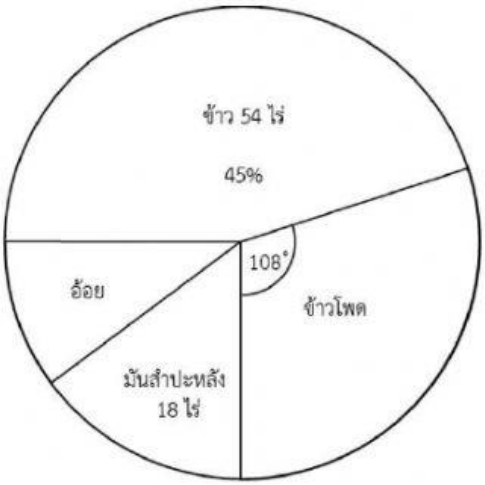

LIVEWORKSHEETS

3) มีพื้นที่เพาะปลูกทั้งหมดกี่ไร่

ก. 110 ไร่

ข. 120 ไร่

ค. 130 ไร่

ง. 140 ไร่

4) มีพื้นที่เพาะปลูกข้าวโพดกี่ไร่

ก. 36 ไร่

ข. 38 ไร่

ค. 40 ไร่

ง. 42 ไร่

5) พื้นที่เพาะปลูกอ้อยคิดเป็นร้อยละเท่าใดของทั้งหมด

ก. ร้อยละ 10

ข. ร้อยละ 12

ค. ร้อยละ 14

ง. ร้อยละ 15

แผนภูมิรูปวงกลมแสดงจำนวนสมาชิกชมรมในโรงเรียนแห่งหนึ่งของนักเรียนจำนวน 200 คน

ตอบคำถามข้อ 6 – 8

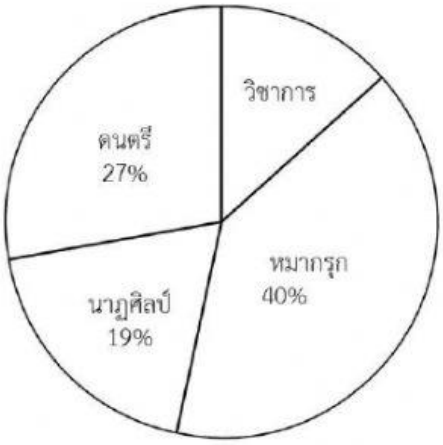

6) มีนักเรียนที่อยู่ชมรมนาฏศิลป์จำนวนกี่คน

ก. 24 คน

ข. 27 คน

ค. 32 คน

ง. 38 คน

LIVEWORKSHEETS

7) **มีนักเรียนที่อยู่ชมรมหมากรุกมากกว่าชมรมดนตรีจำนวนกี่คน**

ก. 24 คน

ข. 26 คน

ค. 30 คน

ง. 32 คน

8) **มีนักเรียนที่อยู่ชมรมวิชาการจำนวนกี่คน**

ก. 28 คน

ข. 30 คน

ค. 32 คน

ง. 34 คน

แผนภูมิรูปวงกลมต่อไปนี้แสดงวิธีเดินทางมาเรียนของนักเรียนโรงเรียนแห่งหนึ่ง จำนวน 400 คน

ตอบคำถามข้อ 9 – 10

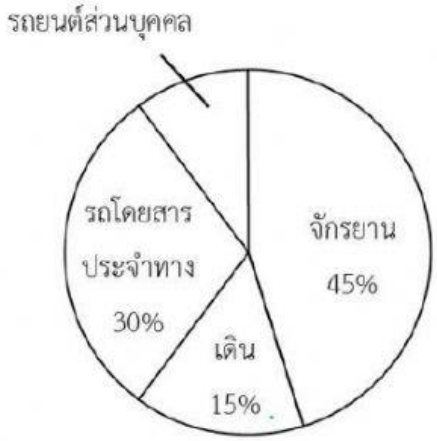

9) **ข้อใดต่อไปนี้เป็นอัตราส่วนของจำนวนนักเรียนที่มาเรียนโดยรถยนต์ส่วนบุคคล ต่อรถโดยสารประจำทางต่อจักรยาน**

ก. 6 : 9 : 2

ข. 6 : 2 : 9

ค. 2 : 6 : 9

ง. 2 : 9 : 6

LIVEWORKSHEETS

10) นักเรียนที่เดินทางมาเรียนโดยการเดินและจักรยานมีจำนวนรวมกันกี่คน

ก. 220 คน

ข. 240 คน

ค. 260 คน

ง. 280 คน

LIVEWORKSHEETS