ชื่อ.....นามสกุล.....ชั้น. ป.1/..... เลขที่.....

ข้อสอบวัดผลสัมฤทธิ์ปลายภาคเรียน (ทำลงในข้อสอบ)

วิชาวิทยาการคอมพิวเตอร์ โรงเรียนแสงประทีปรัฐบำรุง

สำนักงานเขตพื้นที่การศึกษาประถมศึกษานนทบุรีเขต 2 ระดับชั้นประถมศึกษาปีที่ 1

คำชี้แจง ให้นักเรียนเลือกคำตอบที่ถูกที่สุดเพียงข้อเดียว

1. จากภาพ 

เป็นสัญลักษณ์โปรแกรมใด
   ก. โปรแกรมเกม
   ข. โปรแกรมวาดรูป 3 มิติ
   ค. โปรแกรมดูหนัง

2 . หากนักเรียนต้องการเทสีต้องใช้อุปกรณ์ใดในโปรแกรมวาดภาพ
   ก. 
   ข. 
   ค. 

3 . หากนักเรียนต้องการวาดภาพเส้นโค้งใช้อุปกรณ์ใดในโปรแกรมวาดภาพ
   ก. 
   ข. 
   ค. 

4. หากนักเรียนต้องการพิมพ์ตัวอักษรนักเรียนจะใช้อุปกรณ์ใดในโปรแกรมวาดภาพ
   ก. 
   ข 
   ค. 

5. “คีย์บอร์ด” หมายถึงอุปกรณ์ใด
   ก เมาส์
   ข จอภาพ
   ค แป้นพิมพ์

6. สิ่งใดเกิดจากการใช้คอมพิวเตอร์พิมพ์งาน
   ก เล่มรายงานของพี่ ป.6
   ข คลิปวีดีโอ
   ค ภาพเคลื่อนไหว

7. อุปกรณ์ใดพกพาสะดวกที่สุด
   ก ลำโพง
   ข หูฟัง
   ค จอคอมพิวเตอร์

8. สิ่งใดเป็นข้อมูลที่มองเห็นด้วยตา
   ก. เสียงเพลง
   ข. กลิ่นอาหาร
   ค. ภาพดอกไม้

9. นักเรียนไม่ควรเชื่อถือข้อมูลจากใคร
   ก. คุณครู
   ข. คุณพ่อคุณแม่
   ค. คนแปลกหน้า

10. ข้อมูลใดเรารับรู้ได้ด้วย จมูก
   ก. กลิ่น
   ข. เสียง
   ค. ภาพ

LIVEWORKSHEETS

ตอนที่ 2 ให้นักเรียนเขียนเครื่องหมาย ✓ ทับรูปภาพอุปกรณ์หรือเครื่องมือที่ตรงกับแหล่งข้อมูลที่กำหนดให้

1.ข้อมูลภาพ				
2. ข้อมูลอักษร			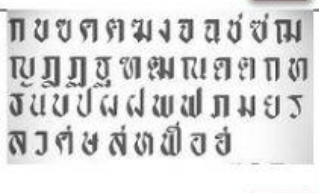	
3.ข้อมูลตัวเลข				
4.ข้อมูลเสียง				
5. ข้อมูลบุคคล			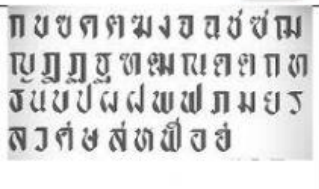	

ให้เลือกคำตอบเพียงข้อเดียวเท่านั้น หากต้องการยกเลิกคำตอบให้คลิ๊กซ้ำ

ต้องการส่งข้อสอบให้คลิ๊กที่ปุ่ม Finish!! **ด้านล่าง แล้วพิมพ์ชื่อ นามสกุล ตามด้วยกด send**

LIVEWORKSHEETS