Toán
Hình tròn, tâm, đường kính, bán kính.

Bạn ơi hãy nhớ

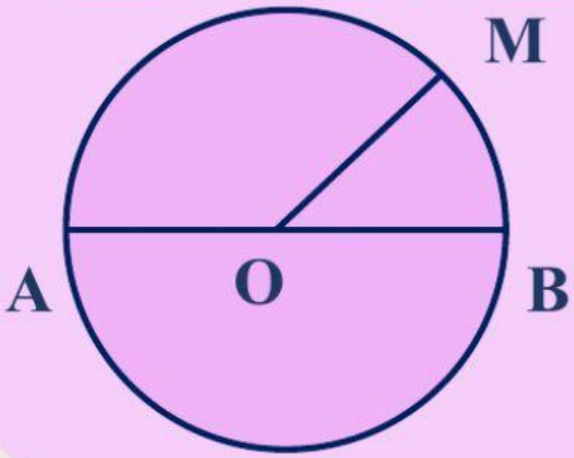

Trong một hình tròn:
- O là tâm.
- OA, OB, OM là bán kính
- AB là đường kính

Bài 1: Nêu tên các bán kính, đường kính của mỗi hình tròn sau:

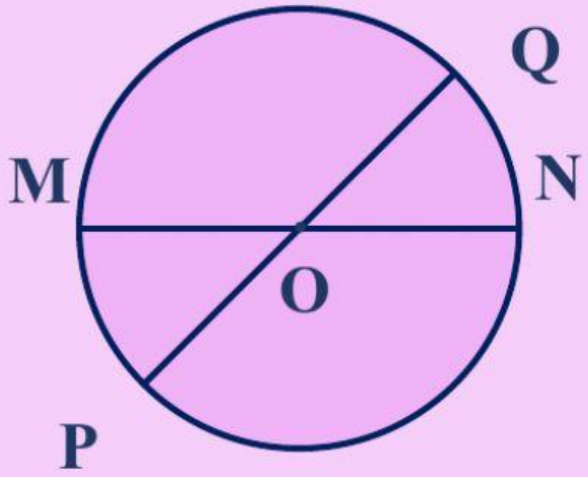

- Bán kính .....
- Đường kính ...

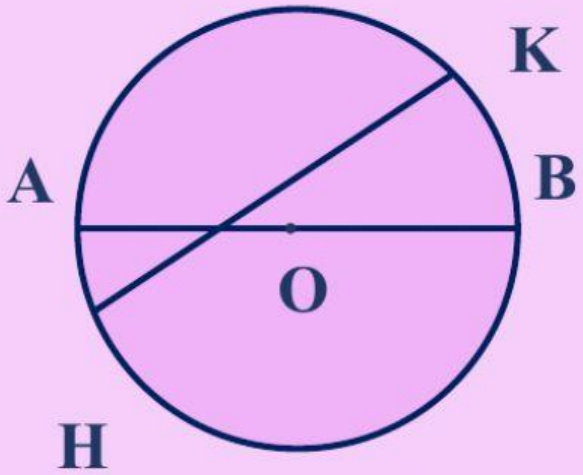

- Bán kính .....
- Đường kính ...

LIVEWORKSHEETS
LIVEWORKSHEETS