Човекът и природата 4.клас

Размножаване и развитие на растенията

Зад. 1 Попълнете празните места в текста. Използвай думите: семената, тръбица, плодника, семепъпката, прашниковото, оплождане, прашникова, плод, увяхва, семе.

Когато _____ зърно попадне върху горната част на _____ , от него израства _____ _____. По нея част от прашеца прониква в _____. Сливането на прашеца и _____ води до _____. Семепъпката се превръща в _____ след оплождането. Цветът _____. Плодникът нараства и се превръща в _____. В плодовете се намират _____.

Зад. 2 Отговори правилно! Кои процеси при растенията показва схемата?/възможен е повече от един отговор/

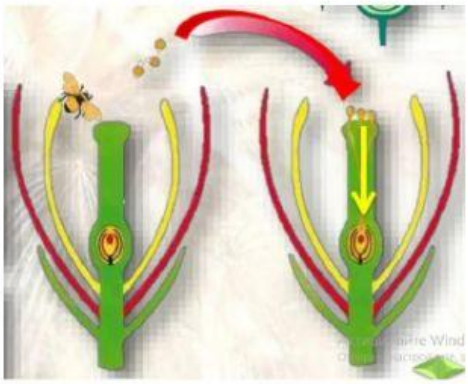

а) покълване

б) цъфтеж

в) опрашване

г) разпространение на семената

д) оплождане

LIVEWORKSHEETS

Зад.3 Довърши схемата, която показва основните части на цвета, като поставиш надписите на правилните места.

венчелистчета

семепъпки

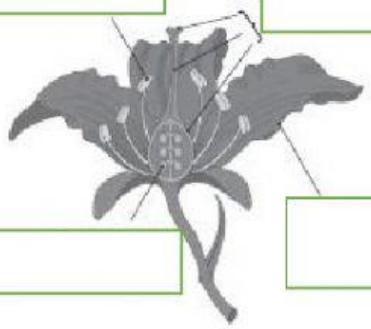

плодник

тичинки

Зад.4 Свържи растенията с приспособленията за разпространение на семената, които им съответстват.

Крилца

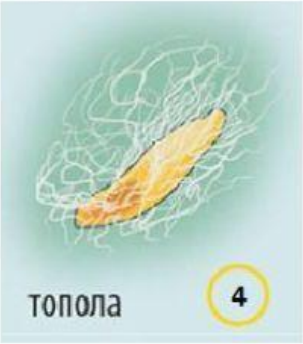

Сочен плод

Власинки

Парашутчета

Кукички

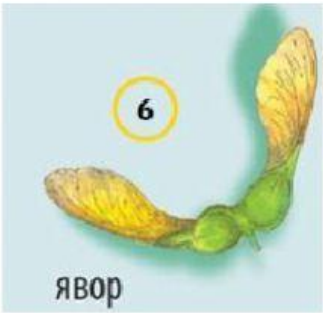

LIVEWORKSHEETS