2 El Circo del Sol en Meloneras



El circo del Sol montó una carpa en Meloneras, en el sur de Gran Canaria. Carolina fue a ver el espectáculo con su madre y sus primas.





Carolina gastó 44 € en la entrada y otros 36 € en un vestido largo de tirantes muy colorido.

¿Qué porcentaje del gasto destinó Carolina al vestido?



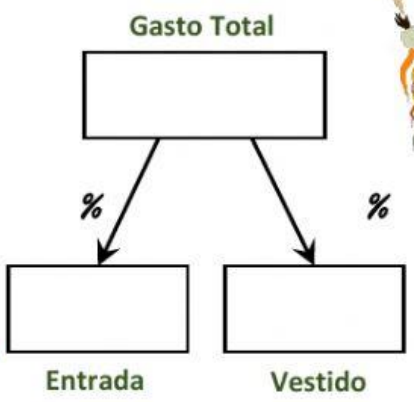

RESPONDE





La función duró 140 minutos. pero Sandra se fue antes de terminar y sólo pudo presenciar el 85% espectáculo.

¿Cuántos minutos antes de finalizar el espectáculo se fue Sandra?



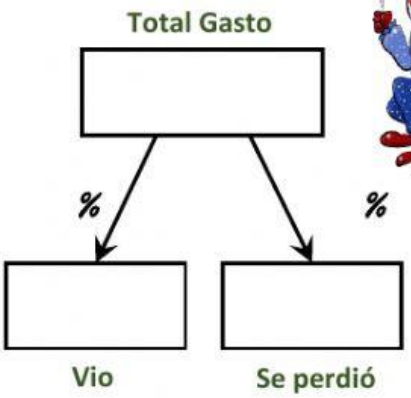

RESPONDE





Al salir Inés se fijó en una sudadera que cuesta 45 € pero solo tiene 18 €, el resto tiene que pedirlo prestado.

¿Qué porcentaje del precio de la sudadera le tienen que prestar?



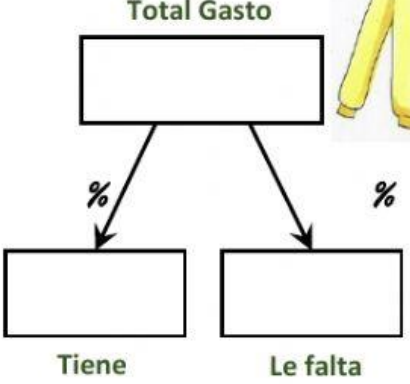

RESPONDE