EVALUACION DE CIENCIAS NATURALES

LA LUZ

CUARTO EGB

Nombre:

Fecha:

1. **Marca** con una **X** las fuentes de luz natural.

2. El siguiente es un material: (explique por qué)

- Luminoso
- Opaco
- Transparente
- Translúcido

3. El espejo que usa el niño para ver su imagen es:

- Plano
- Curvo
- Cóncavo
- Convexo

4. La mezcla de todos los colores de luz produce:

- Una mezcla de luz blanca y amarilla
- Una unión de luz roja y verde
- La luz de la mañana
- La luz blanca.

LIVEWORKSHEETS

línea recta – reflexión - refracción

5. **Identifica** la propiedad de la luz que se representa en cada imagen.

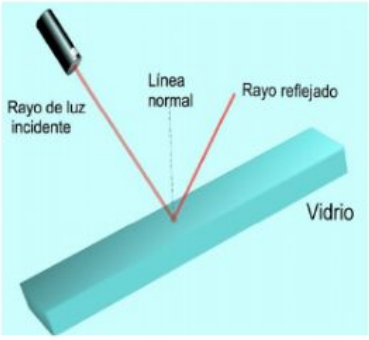

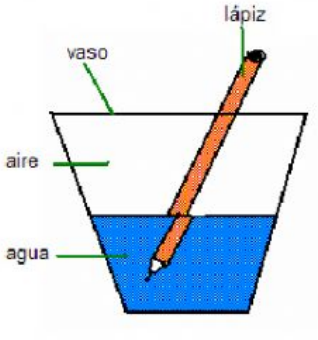

- .....
- .....
- .....

6. **Coloca** los siguientes términos en la imagen que representa un eclipse lunar.

Luna Penumbra Tierra Sol Umbra

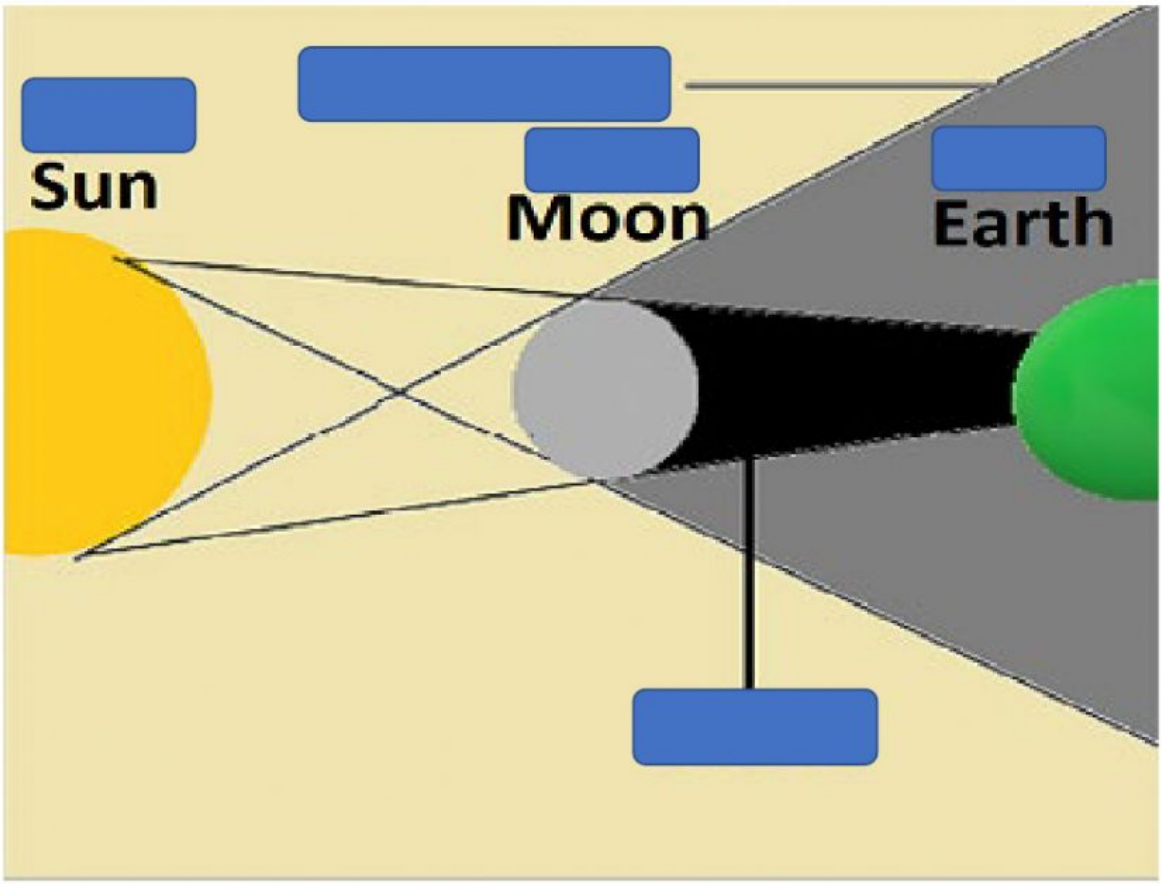

LIVEWORKSHEETS