UNIDAD EDUCATIVA BENJAMÍN FRANKLIN

EXAMEN SEGUNDO QUIMESTRE

Name: _____ **Date 02 – 03 - 2022**

Subject: **Desarrollo del pensamiento** **Teacher:** Miss Ainee Olvera García

Course: Segundo de Básica

1. Selecciona la figura que continua.

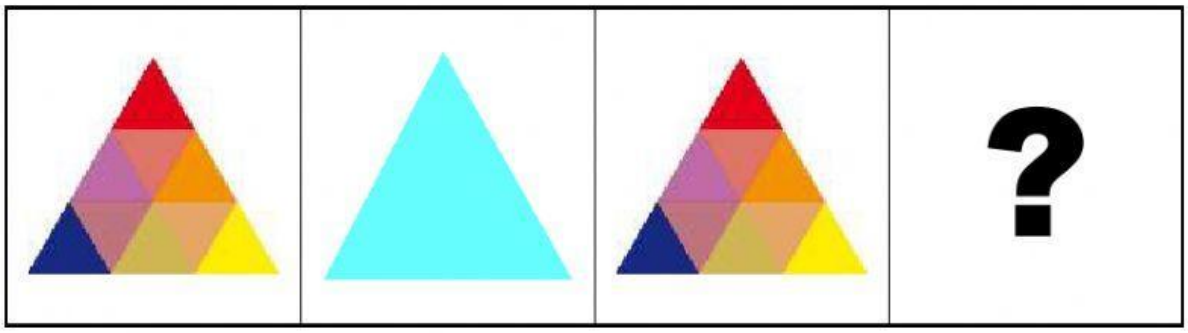

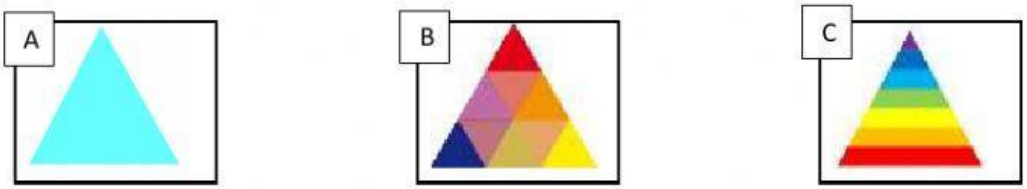

2. Marca la figura que falta



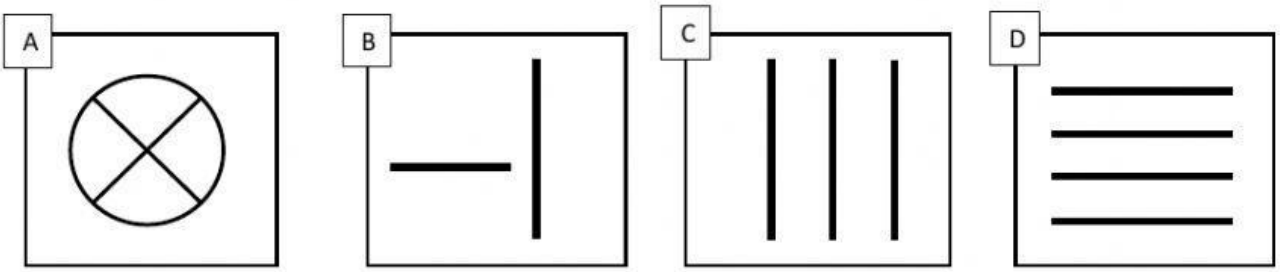

LIVEWORKSHEETS

3. Observa la imagen y responde:

A) ¿Hoy es lunes?

B) ¿Qué día fue ayer?

C) ¿Mañana que día será?

D) ¿Qué día es hoy?

LIVEWORKSHEETS

4. Cuenta las figuras geométricas. Luego selecciona la cantidad que corresponda.



FORMA	TOTAL
□	8 7
△	5 4
▭	4 3
○	9 8

LIVEWORKSHEETS