BÀI TẬP CUỐI TUẦN 30

Bài 1. Số ?

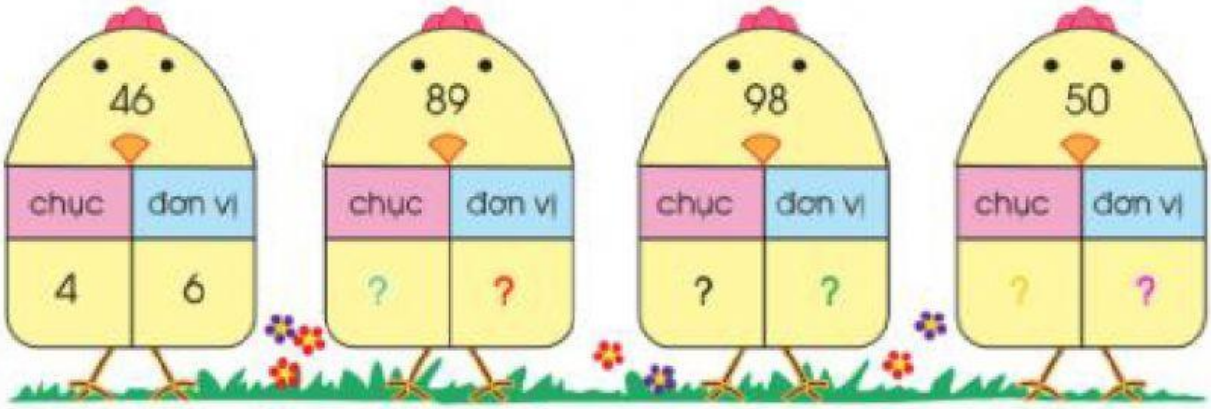

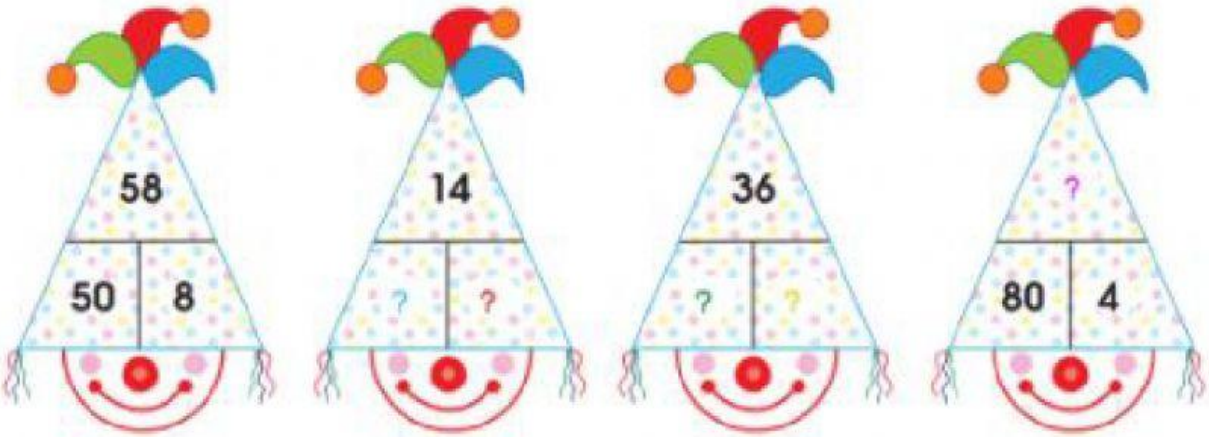

Bài 2. Điền dấu **>, <, =** thích hợp vào ô trống:

68 ☐ 62	81 ☐ 18	25 ☐ 25
9 ☐ 18	50 ☐ 50	92 ☐ 59
57 ☐ 59	14 ☐ 44	99 ☐ 100

LIVEWORKSHEETS

Bài 3. Sắp xếp các số **90, 11, 37, 64, 55** theo thứ tự:

- Từ lớn đến bé: ☐ ☐ ☐ ☐ ☐
- Từ bé đến lớn: ☐ ☐ ☐ ☐ ☐

Bài 4. Đúng ghi Đ, sai ghi S:

a. Số 62 là số có hai chữ số. ☐

b. Số 75 được đọc là: bảy mươi năm. ☐

c.90 gồm 0 chục và 9 đơn vị. ☐

d. Dãy số sau được sắp xếp theo thứ tự giảm dần:

53, 46, 25, 19, 10. ☐

Bài 5. Tìm số thích hợp cho mỗi mảnh ghép:

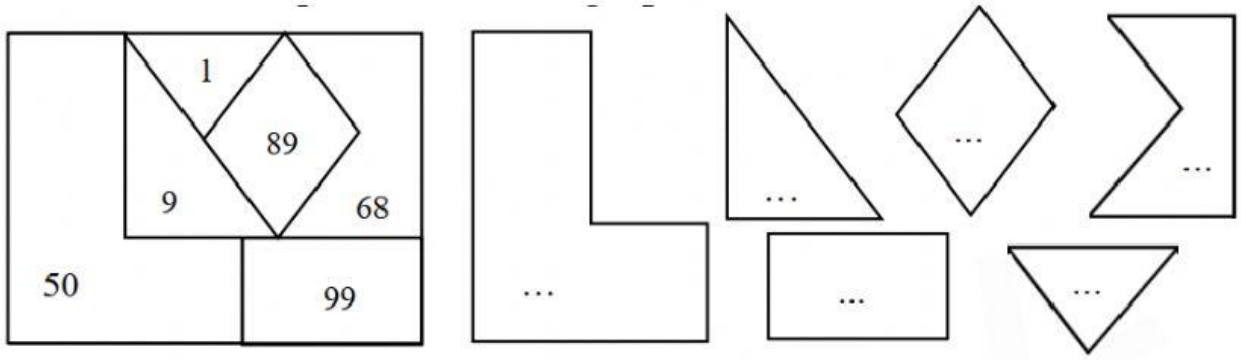

Bài 6. Mẹ mua cho Minh 2 chục cuốn vở màu xanh, 3 chục cuốn vở màu hồng và 4 chục cuốn vở màu vàng. Hỏi loại vở màu gì của Minh có số lượng nhiều nhất ?

Trả lời: *Loại vở .....là loại vở Minh có số lượng nhiều nhất.*

LIVEWORKSHEETS