UBND QUẬN LONG BIÊN
TRƯỜNG MN HOA THỦY TIÊN

ÔN SỐ LƯỢNG TRONG PHẠM VI 5

Câu 1: Bé hãy đếm số đồ vật và nối với chữ số tương ứng

1

2

3

4

5



LIVEWORKSHEETS

Câu 2: Bé hãy đếm số con vật và điền số thích hợp vào ô trống.

LIVEWORKSHEETS

Câu 3: Dếm số đồ vật ở mỗi ô và chọn chữ số tương ứng



LIVEWORKSHEETS

Câu 4: Ở mỗi hàng rùa mẹ đã đẻ được mấy quả trứng. Điền số thích hợp vào chỗ chấm...

.....

.....

.....

.....

.....

LIVEWORKSHEETS

Câu 5: Kéo thả số thích hợp vào toa tàu

2 1 4 3

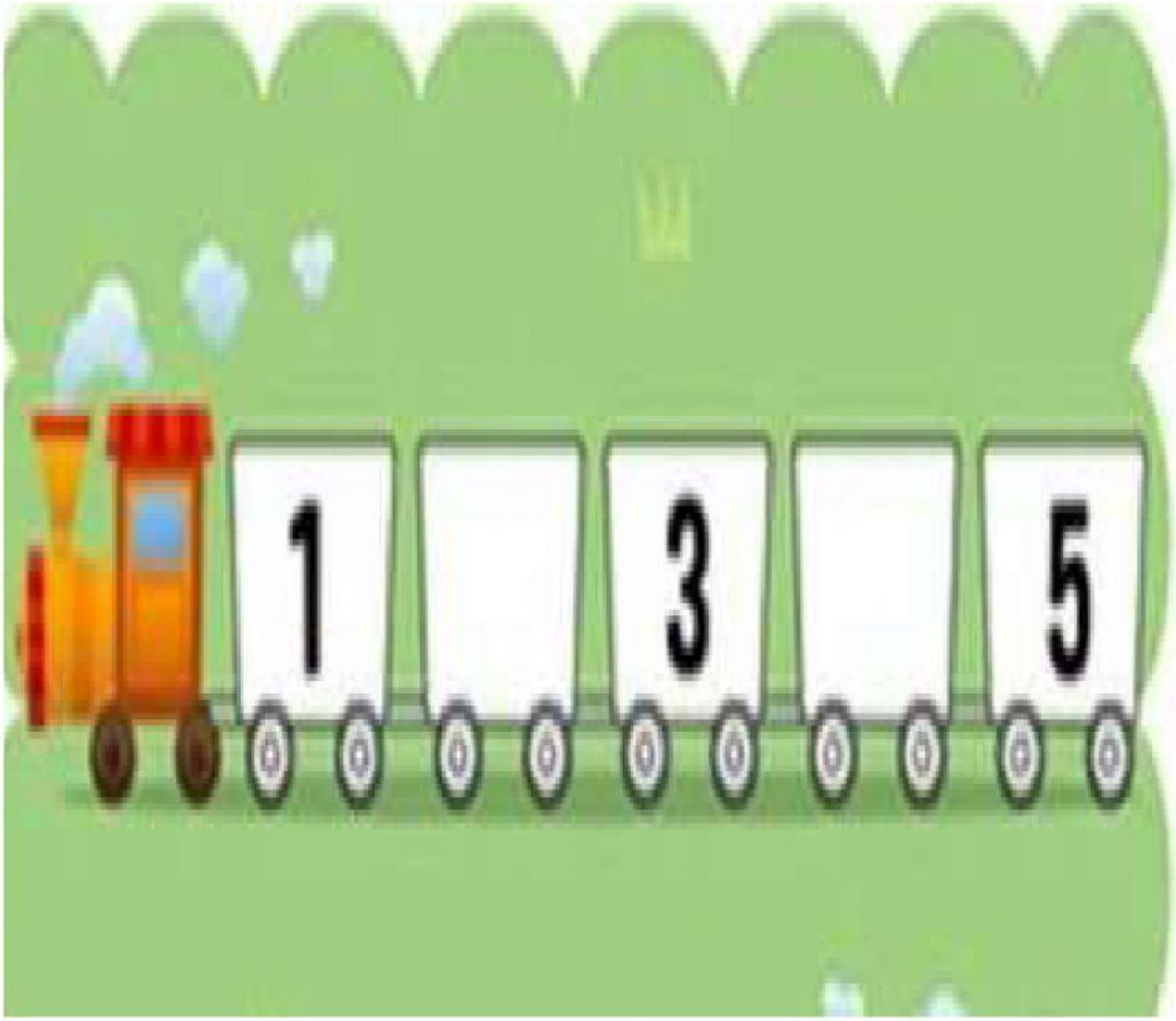

LIVEWORKSHEETS

Câu 6: Điền số thích hợp vào



LIVEWORKSHEETS