Nombre:

1. Calcula el volumen de una pirámide cuya base es un pentágono de 8 cm de lado y 5,5 cm de apotema y cuya altura es 18 cm.

2. ¿Cuántos litros de cera son necesarios para formar una vela piramidal cuadrangular de 12 cm de lado y 15 cm de altura?

3. Calcula el volumen.

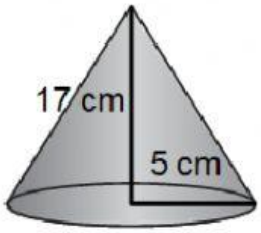

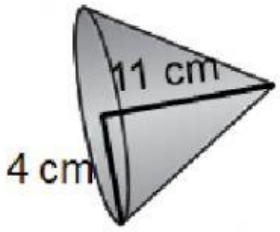
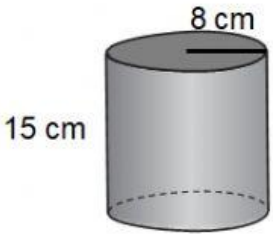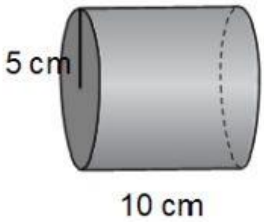
4. Calcula el volumen.