Họ và tên:.....

ÔN TẬP KIỂM TRA ĐỊNH KÌ CUỐI HỌC KÌ 1

…….../3.5điểm

PHẦN I: TRẮC NGHIỆM

…../ 1 điểm

Bài 1: Chọn vào chữ đặt trước câu trả lời đúng:

*1) Cho các số **5 , 7 , 10 , 1,** số bé nhất là:*

a. 1 *b. 0* *c. 5*

2) 10 – 5 + 3 = …….. Số điền vào chỗ chấm là:

a. 5 *b. 8* *c. 3*

……../ 1 điểm

Bài 2: Nối:

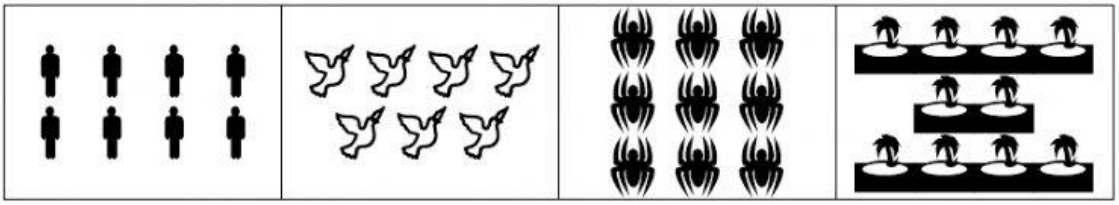

10	**9**	**7**	**8**

……../ 1 điểm

Bài 3: Đúng ghi **Đ**, Sai ghi **S** .

☐ Có 6 quả táo ở trên cây

☐ Có 6 quả táo ở dưới đất

☐ Có 4 quả táo ở trên cây

☐ Có 4 quả táo ở dưới đất

LIVEWORKSHEETS

…….../ 7 điểm

II. TỰ LUẬN:

…….../ 2 điểm

Bài 1. Tính:

a. 6 + 3 = …… 4 + 3 = …… 5 + 2 = ……..

7 – 4 = …… 8 – 3 = …… 10 – 0 = …….

b. 4 + 4 – 8 = …… 9 – 5 + 5 = ……

…….../ 1 điểm

Bài 2: Điền dấu >, <, = vào ô trống:

8 + 0 ☐ 10 - 0 6 + 2 ☐ 6 - 2

…….../ 1 điểm

Bài 3: Xếp các số ***8 , 4 , 2 , 6*** theo thứ tự từ bé đến lớn

……

…….../ 1 điểm

Bài 4 : Số ?

	-		=	10

…….../ 1điểm

Bài 5: Nhìn tranh , viết phép tính thích hợp:



…….../ 1điểm

Bài 6: Hình vẽ có:

……hình tròn

……. hình tam giác

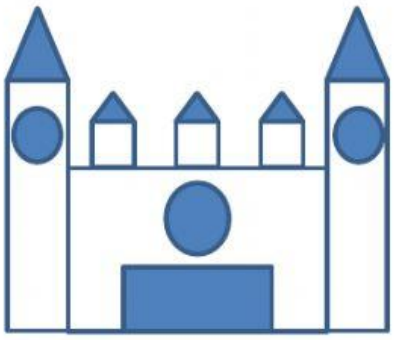

LIVEWORKSHEETS