ชื่อ.....ชั้น.....เลขที่.....

เติมคำตอบโดยใช้ข้อมูลจากแผนภูมิ

1.

จำนวนไม้ดอกที่นักเรียนชั้น ป.4 ปลูกในเรือนเพาะชำ

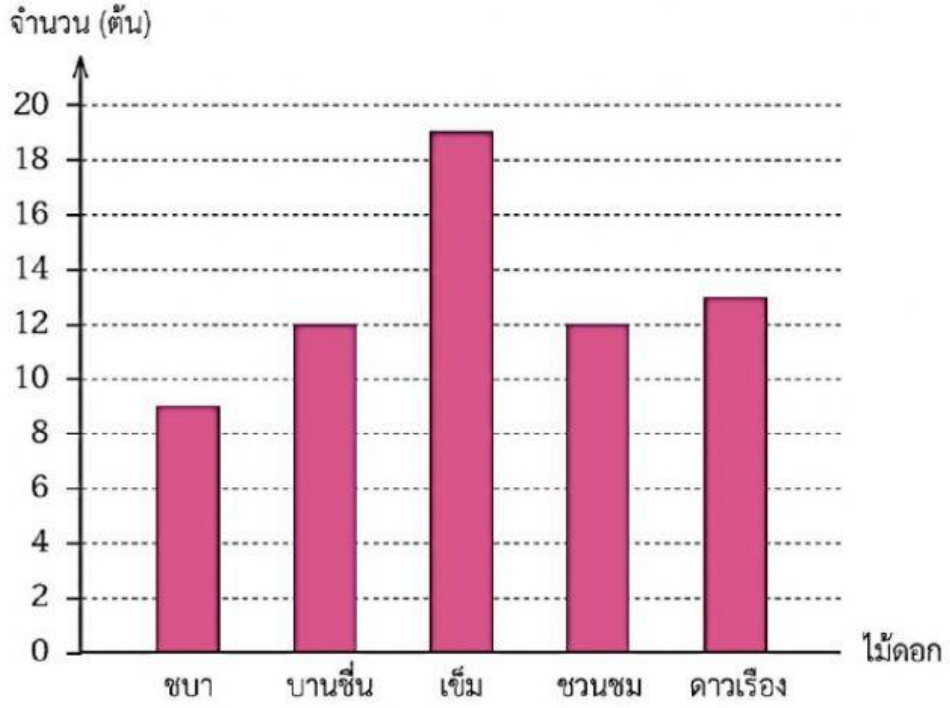

1) นักเรียนปลูกไม้ดอก ..... ชนิด ได้แก่ .....

.....

2) นักเรียนปลูกดาวเรือง ..... ต้น

3) ไม้ดอกที่ปลูกมากที่สุด คือ ..... มีจำนวน ..... ต้น

4) ไม้ดอกที่ปลูกเป็นจำนวนเท่ากัน คือ ..... มีจำนวน ..... ต้น

5) นักเรียนปลูกชวนชมมากกว่าชบา ..... ต้น

6) นักเรียนปลูกไม้ดอกทั้งหมด .....ต้น

7) เรียงลำดับชื่อไม้ดอกตามจำนวนที่นักเรียนปลูกจากมากไปน้อย

.....

.....

LIVEWORKSHEETS

2. **จำนวนรองเท้าประเภทต่างๆ ที่ร้านค้าขายได้ใน 1 สัปดาห์**

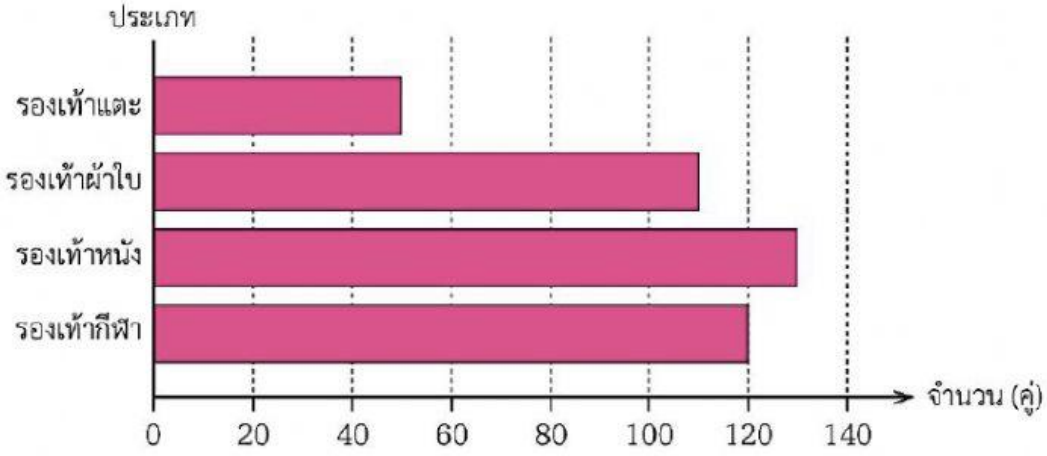

แผนภูมินี้แสดงข้อมูลเกี่ยวกับ .....

1) ร้านค้าขายรองเท้าผ้าใบและรองเท้ากีฬาได้ ..... คู่

2) สัปดาห์นี้ร้านค้าขายรองเท้าได้ทั้งหมด ..... คู่

3) เรียงลำดับประเภทของรองเท้าที่ร้านค้าขายได้น้อยที่สุดไปมากที่สุด

.....

3. **จำนวนนักเรียนชั้น ป.4 ที่ชอบอ่านหนังสือประเภทต่าง ๆ**

1) นักเรียนชอบอ่าน ..... มากที่สุด จำนวน ..... คน

2) นักเรียนที่ชอบอ่าน ..... และ ..... มีจำนวนเท่ากัน

3) นักเรียนชอบอ่านการ์ตูนมากกว่าที่ชอบอ่านนิตยสาร ..... คน

4) เรียงลำดับประเภทหนังสือที่มีนักเรียนชอบอ่านจากน้อยไปมาก

.....

LIVEWORKSHEETS

4.

น้ำหนักเฉลี่ยของเด็กชายและเด็กหญิงในช่วงอายุ 11-14 ปี

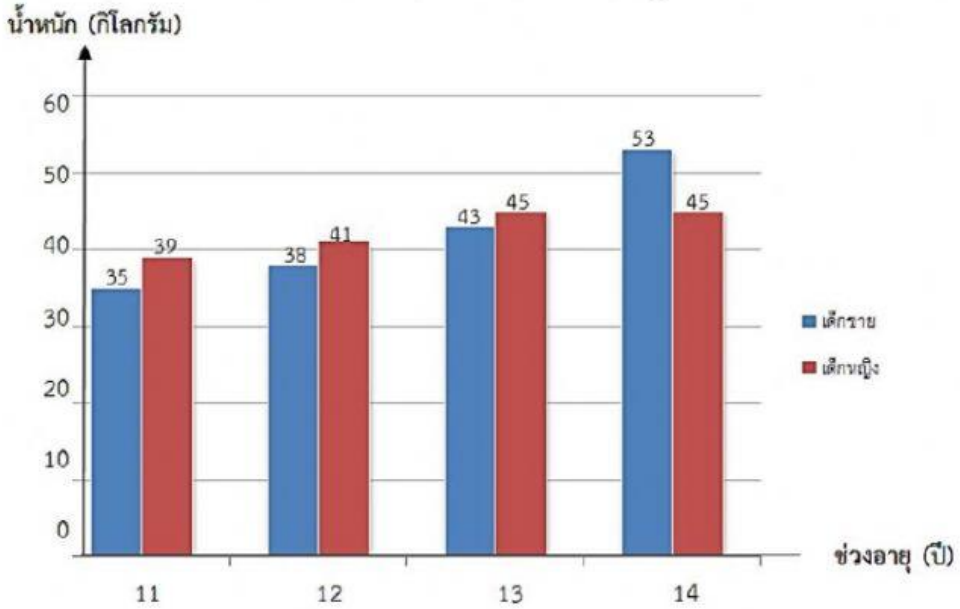

1) อายุ 14 ปี เด็กชายหรือเด็กหญิงที่มีน้ำหนักเฉลี่ยมากกว่ากัน

ตอบ .....

2) อายุวัยใดบ้างที่เด็กหญิงมีน้ำหนักเฉลี่ยมากกว่าเด็กชาย

ตอบ .....

3) อายุ 11 ปี กับอายุ 14 ปี เด็กชายมีน้ำหนักเฉลี่ยต่างกันกี่กิโลกรัม

ตอบ .....

4) ในช่วงอายุ 13-14 ปี เด็กชายมีน้ำหนักเฉลี่ยต่างกันกี่กิโลกรัม

ตอบ .....

5) ในช่วงอายุ 11-13 ปี เด็กชายกับเด็กหญิงมีน้ำหนักเฉลี่ยเป็นอย่างไรเมื่อเปรียบเทียบกัน

ตอบ .....

6) อายุวัยใดที่เด็กชายมีน้ำหนักเฉลี่ยมากกว่าเด็กหญิง

ตอบ .....

LIVEWORKSHEETS