Họ và tên: ..... Lớp: .....

Tuần 23 KHỐI TRỤ, KHỐI CẦU. LUYỆN TẬP CHUNG

1 a) Khoanh vào chữ đặt trước khối trụ.

A. B. C. D.

b) Khoanh vào chữ đặt trước khối cầu.

A. B. C. D.

2 Nối (theo mẫu).

Khối trụ

Khối cầu

3 Khoanh vào chữ đặt trước câu trả lời đúng.



Hình thích hợp đặt vào dấu "?" là:

A. B. C. D.

LIVEWORKSHEETS

4 Số ?

Trong hình vẽ bên có:

- ☐ khối trụ.
- ☐ khối cầu.
- ☐ khối lập phương.

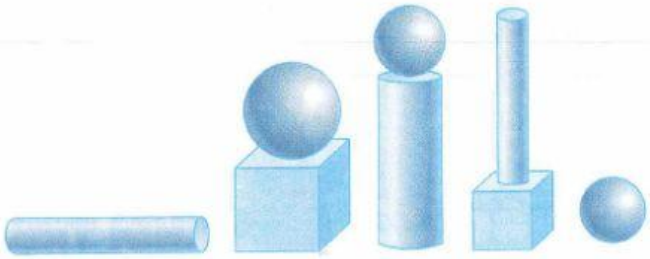

5 Số ?

Trong hình vẽ bên có:

- ☐ đồ vật có dạng khối trụ.
- ☐ đồ vật có dạng khối cầu.

6 Đ, S ?



Toà nhà có dạng khối cầu ☐

Cột đình có dạng khối trụ ☐

Toà tháp có dạng khối trụ ☐

7 Viết số thích hợp vào chỗ chấm.

A B C D E

Hình D sẽ có ..... hộp thịt.

Hình E sẽ có ..... hộp thịt.

LIVEWORKSHEETS