Nombre:_____Grupo: ____Fecha:_____

Trabajando con el teclado: "Cuantas teclas hay de…"

El numero de teclas en un intervalo menos una, es el número de semitonos. Entonces recuerda que cuando hablamos de semitonos se cuenta a partir de la segunda. Ya que el primer semitono se encuentra a partir de la segunda tecla.

Indica en el recuadro debajo de cada imagen el número de semitonos que se encuentran en cada rango de teclas.

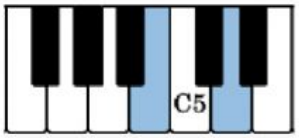

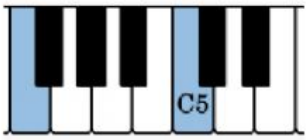

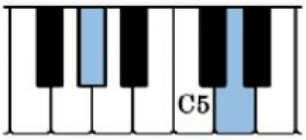

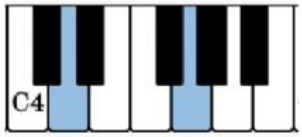

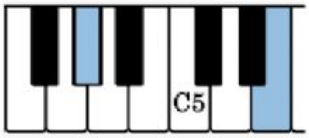

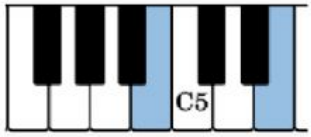

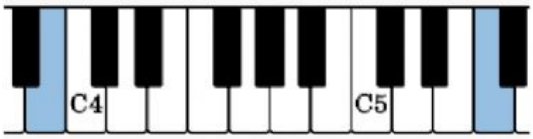

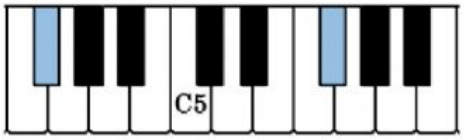

LIVEWORKSHEETS