Работен лист- Умножение и деление

Открий пропуснатите цифри в сборовете и разликите.

2 __ + __ 3 = 71 ; __ + 4 __ = 71 ; __ 2 - 2 __ = 23

8 __ - __7 = 47 ; __ 0 – 2 __ = 36 ; 1__ + __6 + 45 =100

Намери неизвестното число.

3 . X = 24 8 . X + 15 = 63 38 + 5 . X = 78

_____ _____ _____

_____ _____ _____

_____ _____ _____

_____ _____

Свържи всяка кокошка с яйцето.



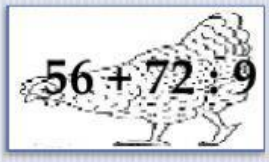



Първият множител е 5, вторият е 9. На колко е равно произведението? - ____

Колко пъти 36 е по- голямо от 9 ? - ____

Колко пъти 5 е по-малко от 40 ? - ____

Делимото е 63, а делителят- 7.Колко е частното?- ____

На колко е равен единият множител, ако произведението е 27, а другият множител е 3? - ____

На всеки етаж във всяка къща живеят по две числа. Техният сбор е записан на покрива ѝ. Открий ги и ги запиши.

18	
8	
	9
10	

100	
	99
40	
	63

78	
9	
	70
45	

Обиколката на равнобедрен триъгълник е 36 см , а основата е 16 см. Намери дължината на бедрото.
Отг.: _____

Прочети текстовата задача. Реши и именувай получените резултати.

В телефона си Ива има 24 цветни снимки и 8 пъти по-малко черно-бели. Тони има 6 пъти по-малко цветни снимки от Ива и с 8 снимки повече черно-бели снимки от нея. Колко снимки общо имат двете деца?

24 + 24 : 8 = _____
24 : 8 = _____
24 : 6 = _____
3 + 8 = _____
4 + 11 = _____
(24 + 3) + (4 + 11) =_____