CAMINO AL MERCADO

Los padres de Ana le han encargado que haga la compra. En el siguiente plano puedes ver representadas varias calles de su ciudad. Además, está señalada su casa, el Mercado Norte y el Mercado Sur.

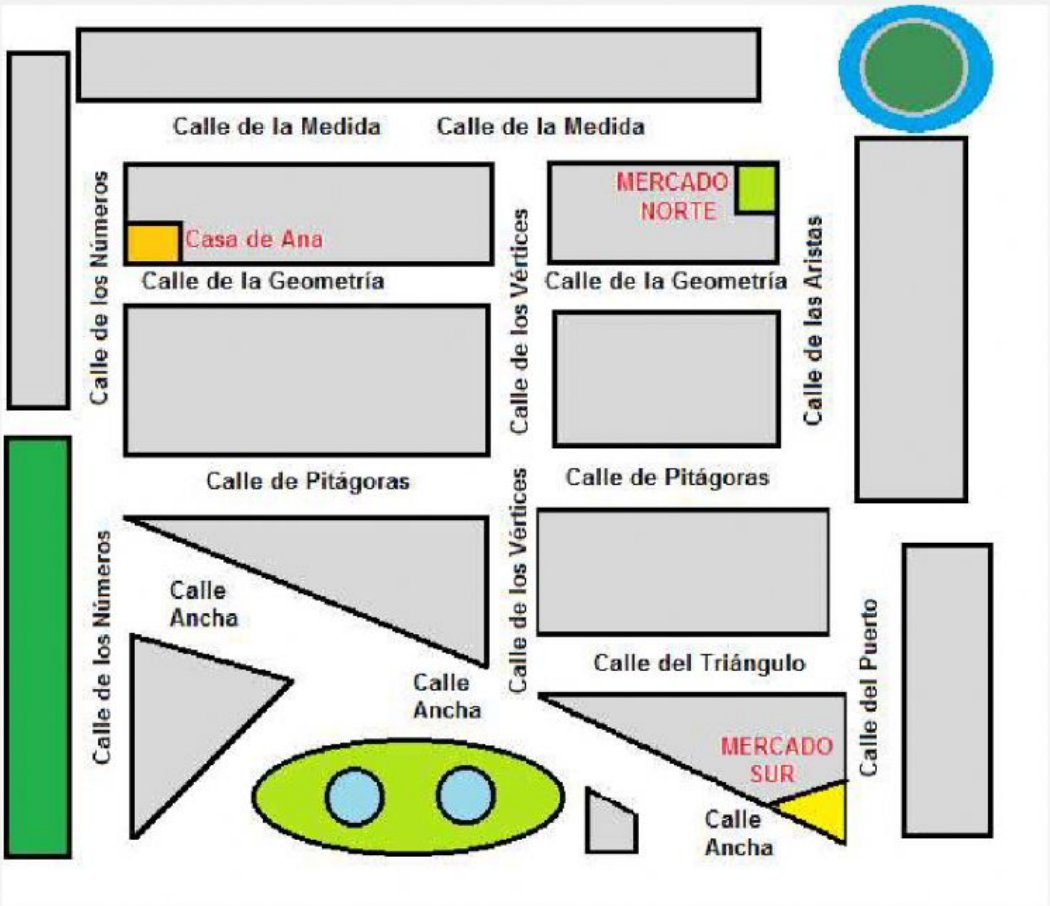

11. Ana está pensando cómo ir al Mercado Norte desde su casa, ¿cuál es el camino <u>más largo?</u>

A. Por la calle de los Números y luego por la calle de la Medida.
B. Por la calle de los Números, luego por la calle de Pitágoras y después por la calle de las Aristas.
C. Por la calle de los Números, luego por la calle Ancha, después por la calle de los Vértices y por último por la calle de la Medida.
D. Por la calle de los Números, luego por la calle de Pitágoras, después por la calle de los Vértices y por último por la calle de la Medida.

LIVEWORKSHEETS

12. El gráfico siguiente muestra el camino seguido por Ana para ir desde su casa al Mercado Norte. Observa la escala gráfica y calcula la distancia que tiene que andar Ana.

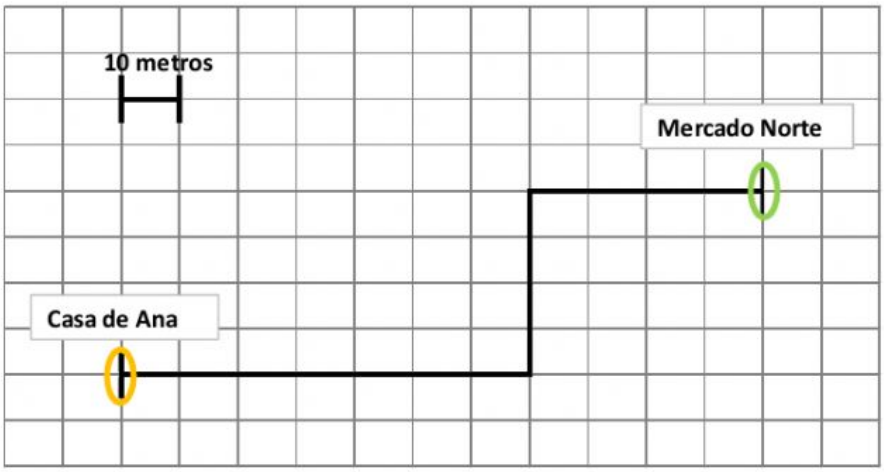

Rellena con cifras:

La distancia real desde la casa de Ana hasta el Mercado Norte es _____ metros.

13. Otro día, Ana salió del Mercado Sur por la calle Ancha y regresó por la calle de Pitágoras y del Puerto otra vez al Mercado Sur. ¿Qué figura quedó representada por el recorrido completo?

A. Triángulo.
B. Cuadrado.
C. Rectángulo.
D. Circunferencia.

LIVEWORKSHEETS

14. En un puesto del mercado vendían refrescos a 3 € cada paquete y galletas a 14 € la caja. Vendieron 7 paquetes de refrescos y una caja de galletas.

Realiza la siguiente operación para calcular el dinero que consiguieron:

3 x 7 + 14 =

A. 17 €
B. 24 €
C. 35 €
D. 49 €

15. El siguiente cartel nos informa del horario del mercado.

Ana mira el reloj y ve que son las 19:30 horas. ¿Cuánto tiempo le queda hasta que cierre el mercado?

A. Dos segundos.
B. Dos minutos.
C. Dos horas.
D. Doce horas.

LIVEWORKSHEETS

16. En las siguientes etiquetas figura el precio de algunos artículos que se venden en el mercado.

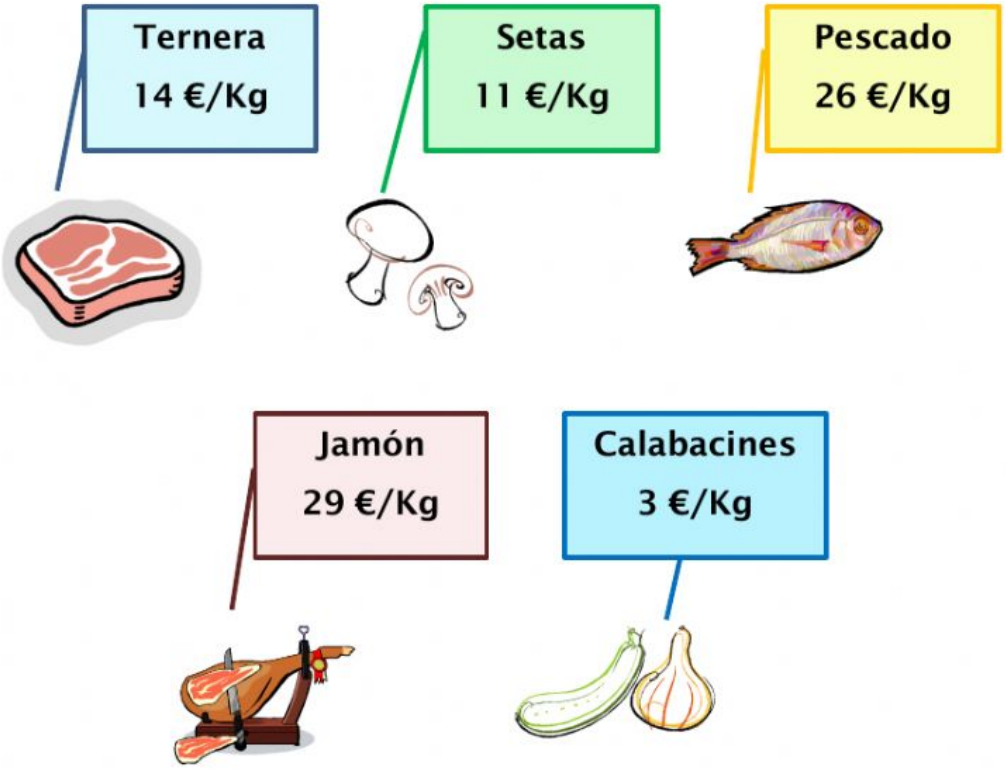

Ordena los artículos de menor a mayor precio.

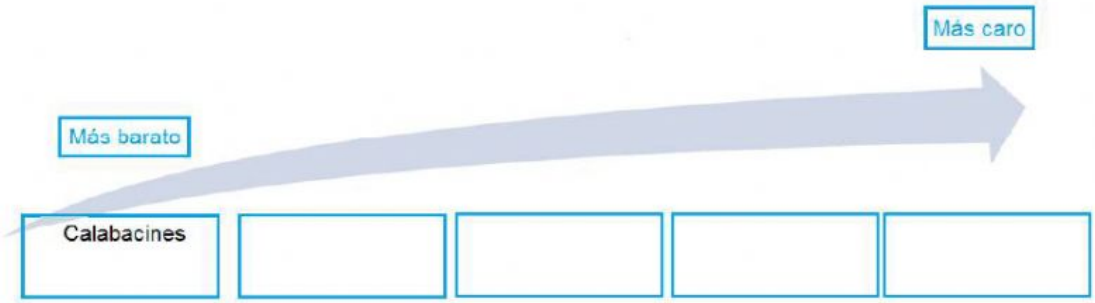

¡GRACIAS POR TU TRABAJO!

LIVEWORKSHEETS

LIVEWORKSHEETS