D

SDN ANGKE 03 PAGI

SERIMPI CLASS

PTS GENAP TA 2021 - 2022

RABU, 23 FEBRUARI 2022

CREATED BY, DIAH PALUPI

TEMA 6

LINGKUNGAN BERSIH, SEHAT, DAN ASRI (2)

LIVEWORKSHEETS

E – LKPD

ELECTRONIC– LEMBAR KERJA PESERTA DIDIK

PENILAIAN TENGAH SEMESTER GENAP TA 2021–2022

BERBASIS HOTs

(HIGHER ORDER THINKING SKILL)

SERIMPI *CLASS*

SDN ANGKE 03 PAGI

NAMA: _____

NO ABSEN: _____

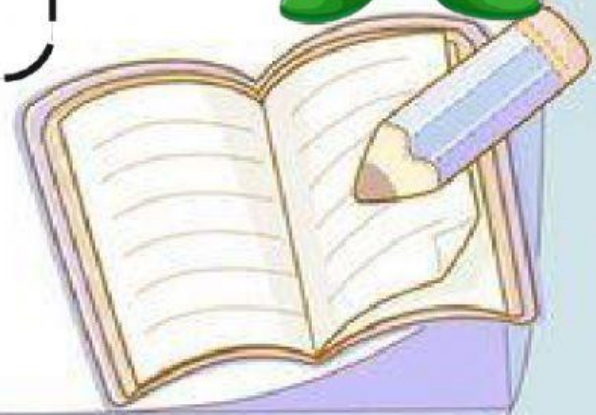

LIVEWORKSHEETS

C.Petunjuk Pengisian E-LKPD

1. Tuliskan identitas kalian pada kotak disediakan!
2. Kerjakan setiap kegiatan yang ada pada LKPD ini.
3. Bacalah setiap petunjuk kegiatan dengan teliti sebelum mengerjakan.
4. Berdoalah sebelum mengerjakan.
5. Jika E-LKPD sudah dikerjakan semua, klik finish.
6. Setelah klik finish, maka akan muncul gambar berikut

7. Pada kotak Enter your full name, tuliskan nama lengkap kalian.

   a. Pada kotak Group/level, isi dengan angka 1

   b. Pada kotak School subject, tuliskan SDN ANGKE 03 PAGI.

LIVEWORKSHEETS

D. ELECTRONIK LEMBAR KERJA PESERTA DIDIK

A. MATEMATIKA 3.3

1. Ibu membeli 15 buah jeruk dan 11 buah manga.

   Kalimat matematika yang tepat untuk soal tersebut adalah··· .

   a. 15 jeruk − 11 jeruk

   b. 15 jeruk + 11 mangga

   c. 15 mangga − 11 mangga

2. Hasil pengurangan yang tepat dari soal berikut adalah··· .

   23 − 13 = ...
   23 = ... puluhan + ... satuan
   13 = ... puluhan + ... satuan −
   ... puluhan + ... satuan
   Jadi, 23−13 = ...

   a. 10 b. 13 c. 15

3. Hasil pengurangan yang tepat dari soal berikut adalah··· .

   35
   14 -

   a. 20 b. 21 c. 22

4. Ayah memelihara 37 ikan mas dikolam belakang rumah. Pagi ini 10 ikan ayah mati. Tentukan kalimat matematika yang tepat untuk soal tersebut!

LIVEWORKSHEETS

5. 54 63

24 - 30 -

B. MATEMATIKA 3.5

1. 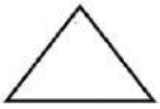 nama bangun datar tersebut adalah….

   a. Persegi

   b. Persegi Panjang

   c. Segitiga

2. Benda yang mempunyai bentuk seperti bangun persegi Panjang adalah… .

   a. Roda sepeda

   b. Atap rumah

   c. Pintu rumah

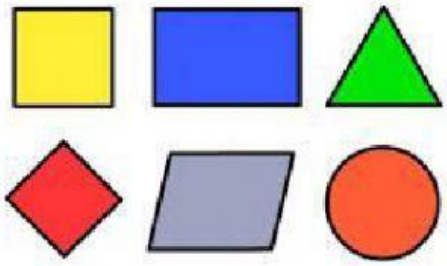

3. urutan nama -nama yang tepat untuk bangun datar tersebut adalah… .

   a. Persegi-persegi Panjang-segitiga-lingkaran-jajar genjang-belah ketupat

   b. Persegi Panjang-persegi-segitiga-lingkaran-jajar genjang-belah ketupat

   c. Segitiga-Persegi-persegi Panjang- lingkaran-jajar genjang-belah ketupat

LIVEWORKSHEETS

4. Lengkapi pola pengubinan berikut dengan cara menarik kotak berwarna ke tempat yang tersedia!

Tarik kotak berikut untuk melenkapi pola pengubinan pada kotak yang tidak berwarna!

5. Lengkapi pola pengubinan berikut dengan cara menarik gambar bangun yang sesuai!

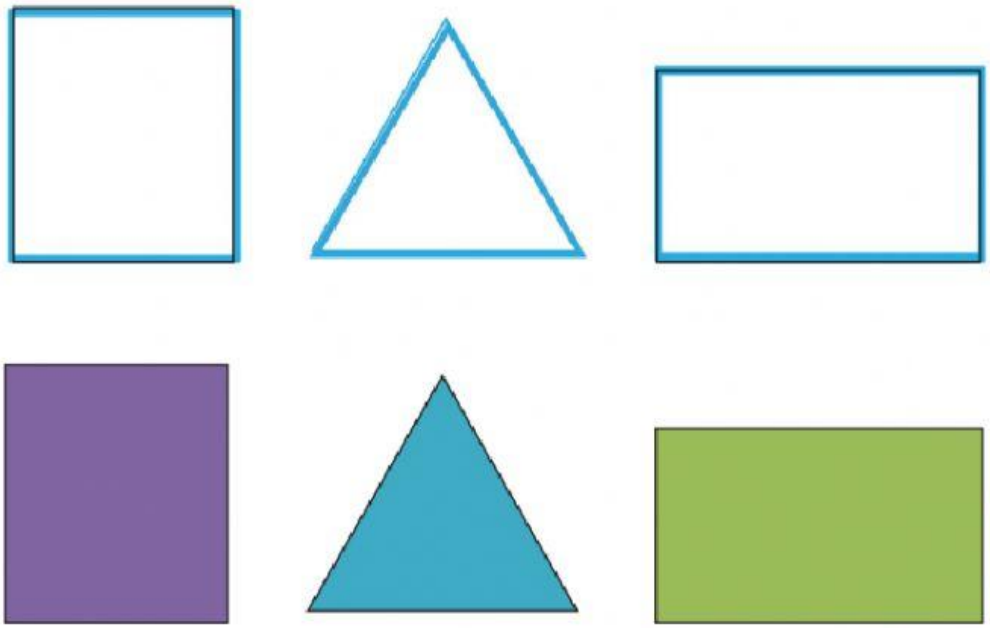

LIVEWORKSHEETS

C. SBDP 3.2

1. Setiap benda yang bergetar akan menghasilkan ⋯ .

   a. Bunyi b. irama c. nada

2. Alat music berikut yang dapat menghasilkan bunyi kuat adalah⋯ .

   a. b. c.

3. nama alat musik tersebut adalah⋯ .

   a. Marakas b. flute c. triangle

4. Tuliskan 3 jenis alat musik ritmis yang menghasilkan bunyi kuat!

5. Tuliskan 3 jenis alat musik yang dimainkan dengan car dipukul!

D. SBDP 3.4

1. Gambar berikut yang merupakan bahan alam yang dapat digunakan untuk menghasilkan kerajinan adalah⋯ .

   a. Kertas origami b. botol bekas c. daun pandan

LIVEWORKSHEETS

2. Kerajinan berikut yang dihasilkan dari bahan alam adalah…

a. 

b.

c.

3. Karya seni tersebut di buat dari bahan… .

a. Alam b. buatan c. bekas

4. Karya seni tersebut, termasuk karya seni …. dimensi

5. Tuliskan Langkah-langkah membuat sebuah karya kolase!

LIVEWORKSHEETS