ÔN TẬP

KẾT NỐI BÀI HỌC

1. Chọn lệnh được sử dụng trong Logo.

FD BK RT EU LT PU WAIT CS SC PD HT REPEAT

2. Để Rùa vẽ được hình sau, em chọn lệnh nào?

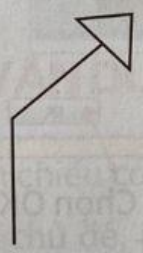

A. FD 100 RT 60 FD 100

B. FD 100 LT 60 FD 100

C. FD 100 RT 90 FD 100

D. FD 100 LT 80 FD 100

3. Nối lệnh để Rùa vẽ được hình tương ứng.



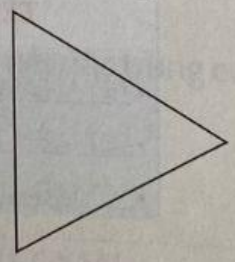

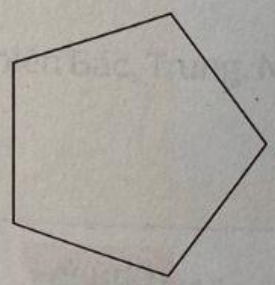

REPEAT 4
[FD 100 RT 90]

REPEAT 5
[FD 100 RT 72]

REPEAT 3
[FD 100 RT 120]

LIVEWORKSHEETS