Họ và tên :.....

ÔN TẬP KIỂM TRA ĐỊNH KÌ CUỐI HỌC KÌ 1

Năm học : 2020 - 2021

…….. / 3 điểm

I. Phần trắc nghiệm :

…….. / 1 điểm

<u>Bài 1 :</u> Đếm số lượng rồi chọn vào số thích hợp:

…….. / 1 điểm

<u>Bài 2:</u> Chọn vào chữ cái đặt trước câu trả lời đúng

*1) Cho các số **2 , 7 , 9 , 5** số lớn nhất là:*

a. 9 b. 10 c. 7

***2)** Phép tính 7 + 3 = …… kết quả là*

a. 4 b. 10 c . 9

…….. / 1 điểm

3) Trên bàn có bao nhiêu xe ô tô :

a. 10

b. 7

c. 6

LIVEWORKSHEETS

……/ 7 điểm

II. TỰ LUẬN:

……/ 1 điểm

Bài 1: Xếp các số ***9 , 4 , 0 , 6*** theo thứ tự từ lớn đến bé

……

……/ 2 điểm

Bài 2: Tính:

a. 4 + 6 = …… 6 + 2 = …… 3 + 3 = ……

6 – 3 = …… 7 – 4 = …….. 8 – 7 = ……

b. 1 + 8 – 9 = …… 9 – 7 + 6 = ……

……/ 1 điểm

Bài 3: Điền dấu >, <, = vào ô trống:

10 - 8 ☐ 0 + 2 2 + 4 ☐ 8 - 3

……/ 1điểm

Bài 4 : Số ?

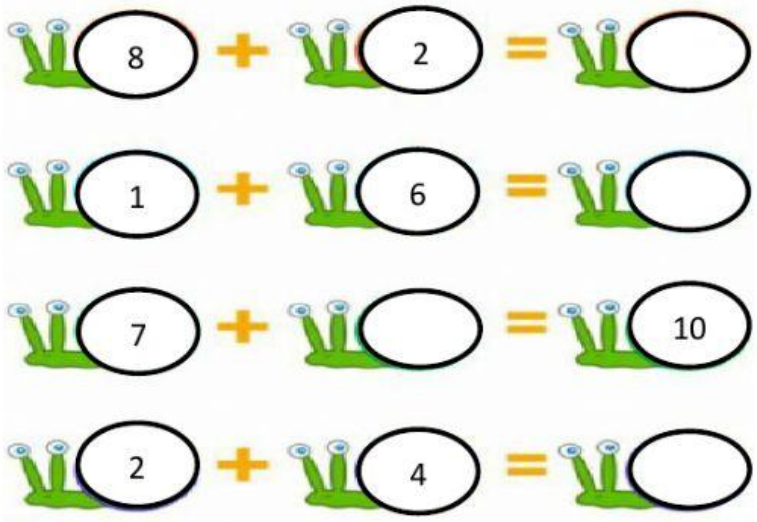

……/ 1điểm

Bài 5: Nhìn tranh , viết phép tính thích hợp:



……/ 1 điểm

Bài 6: Hình vẽ bên có:

……. hình tròn

……. hình tam giác

……. hình chữ nhật

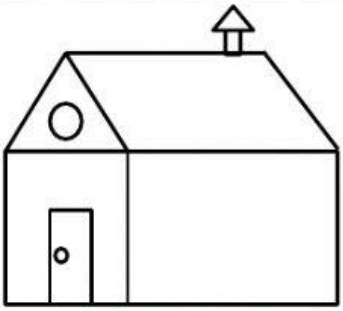

LIVEWORKSHEETS

LIVEWORKSHEETS