LEMBAR KEGIATAN PESERTA DIDIK

Bruto, Tara dan Netto

Sub Pokok Materi : Panjang Busur dan Luas Juring
Kelas/Semester : VIII/II
Waktu : 2× 40 *menit*
Tujian Pembelajaran :
Peserta didik dapat menghitung panjang busur
Peserta didik dapat menghitung luas juring

1. Panjang Busur

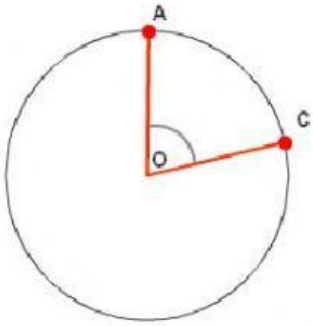

Perhatikan gambar di samping !
Jika jari-jari lingkaran OA = r dan sudut pusat AOC = α yang menghadap busur AC maka :

$$\frac{\text{panjang busur Ac}}{\text{keliling lingkaran}} = \frac{\text{sudut pusat AOC}}{\text{satu putaran}}$$

$$\frac{\text{panjang busur Ac}}{2\pi r} = \frac{\alpha}{360^\circ}$$

Panjang busur = $\frac{\alpha}{360^\circ} \times 2\pi r$

Contoh Soal :

1. Sebuah lingkaran dengan sudut POQ 45°. Dan panjang OQ 7 cm. hitunglah panjang busur PQ!
   Jawab :
   Dik : $\alpha = 45^\circ$; r = 7 cm
   Dit : panjang busur PQ
   Peny :
   Panjang busur PQ $= \frac{\alpha}{360^\circ} \times 2\pi r$
   $= \frac{....}{360^\circ} \times 2 \times \frac{....}{7} \times ....$
   $= \frac{....}{....} \times .... \times \frac{22}{7} \times ....$
   $= 5, 5$ cm

Sebagai referensi, silakan kalian simak video berikut:

2. Luas Juring

Perhatikan gambar diatas!

$$\frac{\text{Luas juring AOB}}{\text{luas lingkaran}} = \frac{\text{Besar sudut pusat}}{360^\circ}$$

$$\frac{\text{Luas juring AOB}}{\pi r^2} = \frac{\text{Besar sudut} < \text{AOB}}{360^\circ}$$

Luas juring AOB $= \frac{\alpha}{360^\circ} \times \pi r^2$

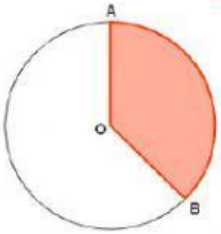

Contoh soal :

1. Diketahui lingkaran dengan jari-jari 30 cm dan sudut pusat AOB = 120° . hitunglah luas juroing AOB!
   Jawab :
   Dik : r = 30 cm ; < AOB = 120° .
   Dit : luas juring AOB !
   Peny :
   Luas juring AOB $= \frac{\alpha}{360^\circ} \times \pi r^2$
   $= \frac{.....}{360^\circ} \times .... \times (30)^{....}$
   $= \frac{1}{3} \times .... \times .... \times 30$
   $= 942$ cm ^{2}

LIVEWORKSHEETS

Latihan

1. Hitunglah luas juring dan Panjang busur dari gambar di samping!

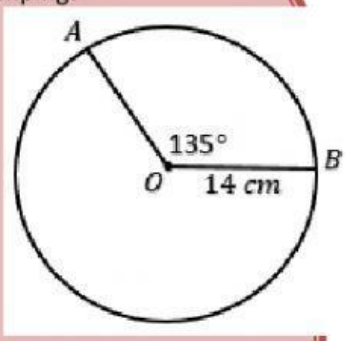

Dik : r = …….. cm ; < AOB = ……° .

Dit : luas juring AOB !

Peny :

Luas juring AOB = $\frac{\alpha}{360°}$ X πr^2

= $\frac{\ldots\ldots}{360°}$ x .... x $(\ldots)^2$

= $\frac{\ldots}{\ldots}$ x .... x .... x ....

= ….. cm ^{2}

Dit : panjang busur PQ

Peny :

Panjang busur PQ = $\frac{\alpha}{360°}$ x $2\pi r$

= $\frac{\ldots\ldots}{360°}$ x 2 x $\frac{\ldots}{7}$ x ....

= $\frac{\ldots}{\ldots}$ x .... x $\frac{22}{7}$ x ....

= ….. cm

2. Diketahui sebuah lingkaran berpusat di P dengan ∠ APB = 30°, panjang busur PB = 10 cm, dan π = 3, 14. Tentukan luas juring APB dan Panjang busur APB!

Dik : r = …….. cm ; < AOB = ……° .

Dit : luas juring AOB !

Peny :

Luas juring AOB = $\frac{\alpha}{360°}$ X πr^2

= $\frac{\ldots\ldots}{360°}$ x .... x $(\ldots)^2$

= $\frac{\ldots}{\ldots}$ x .... x .... x ....

= ….. cm ^{2}

Dit : panjang busur PQ

Peny :

Panjang busur PQ = $\frac{\alpha}{360°}$ x $2\pi r$

= $\frac{\ldots\ldots}{360°}$ x 2 x 3,14 x ....

= $\frac{\ldots}{\ldots}$ x .... x ... x ....

= ….. cm

LIVEWORKSHEETS