• In ogni cestino ci sono 4 mele. Raggruppa per 4 e completa.



..... mele in tutto

..... mele in ogni cestino

..... cestini

..... : ..... = ...

• In ogni busta ci sono 5 limoni. Raggruppa per 5 e completa.

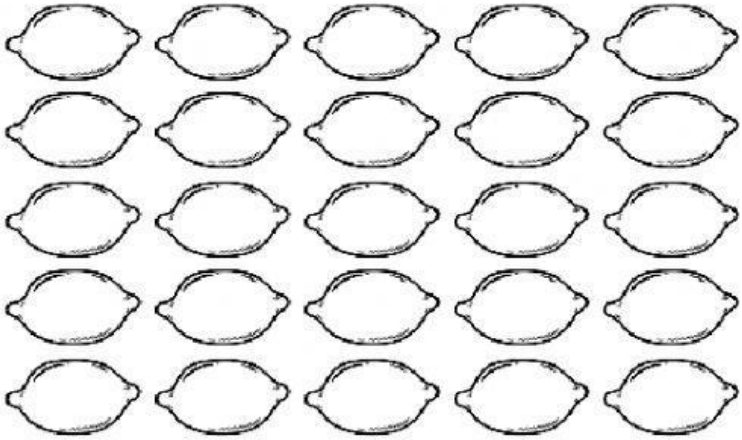

..... limoni in tutto

..... limoni in ogni busta

..... buste

..... : ..... = ...

• In ogni vaschetta ci sono 8 fragole. Raggruppa per 8 e completa.

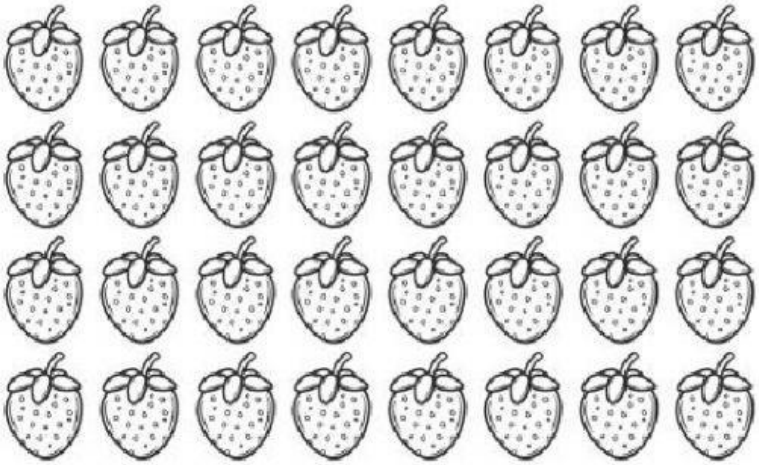

..... fragole in tutto

..... fragole in ogni vaschetta

..... vaschette

..... : ..... = ...

LIVEWORKSHEETS

• In ogni contenitore ci sono 6 uova. Raggruppa per 6 e completa.



..... uova in tutto

..... uova in ogni contenitore

..... contenitori

..... : ..... = ...

• In ogni campo ci sono 7 palline. Raggruppa per 7 e completa.



..... palline in tutto

..... palline in ogni campo

..... campi

..... : ..... = ...

• In ogni scatola ci sono 9 lampadine. Raggruppa per 9 e completa.



..... lampadine in tutto

..... lampadine in ogni scatola

..... scatole

..... : ..... = ...

LIVEWORKSHEETS

• In ogni cassetta ci sono 6 bottiglie. Raggruppa per 6 e completa.

..... bottiglie in tutto

..... bottiglie in ogni cassetta

..... cassette

..... : ..... = ...

• In ogni acquario ci sono 8 pesci. Raggruppa per 8 e completa.



..... pesci in tutto

..... pesci in ogni acquario

..... acquari

..... : ..... = ...

• In ogni scatola ci sono 3 penne. Raggruppa per 3 e completa.



..... penne in tutto

..... penne in ogni scatola

..... scatole

..... : ..... = ...

LIVEWORKSHEETS