PERIODO	Segundo	**DOCENTE**	Rubén Darío Quintero E
ÁREA	Matemáticas	**ASIGNATURA**	Estadística
GRADO	Octavo	**FECHA**	
ESTUDIANTE			
UNIDAD	Gráficos estadísticos		
PROPÓSITOS	Análizar gráficas estadísticas		

Analiza los siguientes gráficos y responde

1. La siguiente gráfica representa una excursión en autobús de un grupo de estudiantes, reflejando el tiempo (en horas) y la distancia al colegio (en kilómetros)

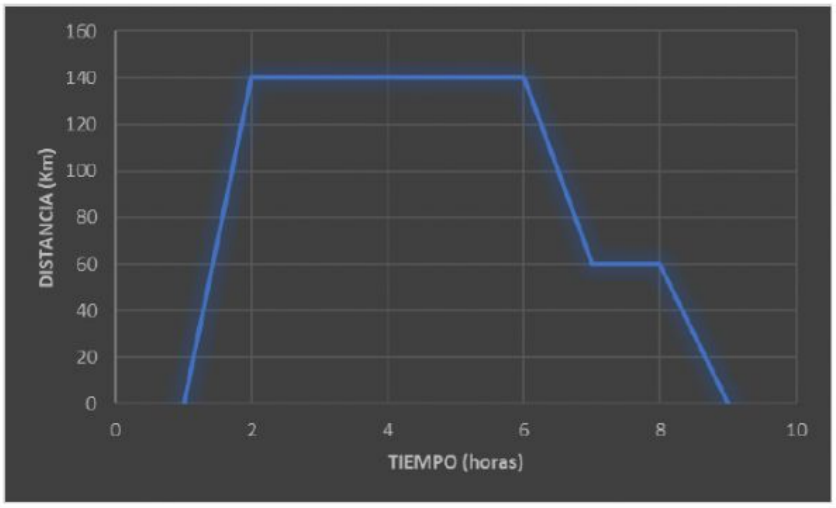

a. ¿A cuántos kilómetros estaba el lugar que visitaron?
b. ¿Cuánto tiempo duró la visita al lugar?
c. ¿Hubo alguna parada a la ida? SI NO
d. ¿Hubo alguna parada a la vuelta? SI NO
e. ¿Cuánto duró la excursión completa? (¿incluyendo el viaje de ida y el de vuelta?

2. La siguiente gráfica nos da el precio por unidad de un cierto producto, dependiendo del número de unidades que compremos de dicho producto (la compra está limitada a 10 unidades como máximo):

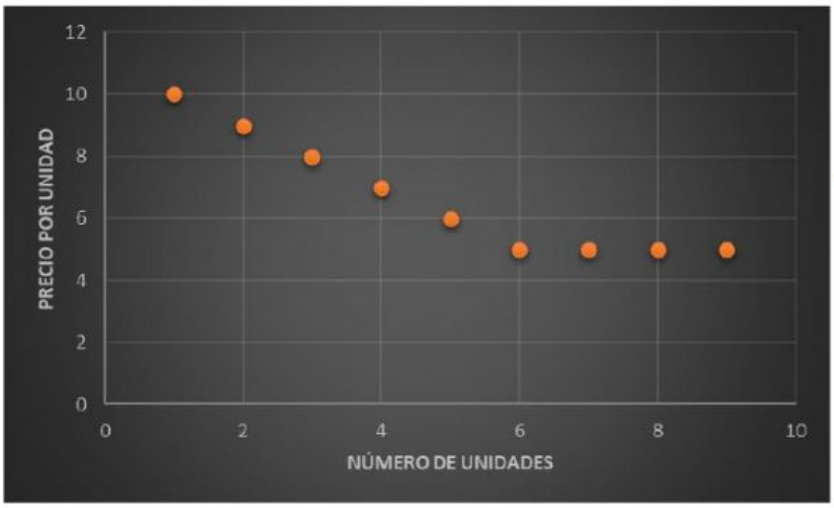

a. ¿Cuánto nos costará comprar una unidad de dicho producto?
b. ¿Cuál es el precio máximo por unidad?
c. ¿Cuál es el precio mínimo por unidad?
d. ¿A partir de cuántas unidades el precio se estabiliza y no baja más? ¿Cuál es ese precio?

3. La siguiente gráfica muestra la venta de pizza durante una semana

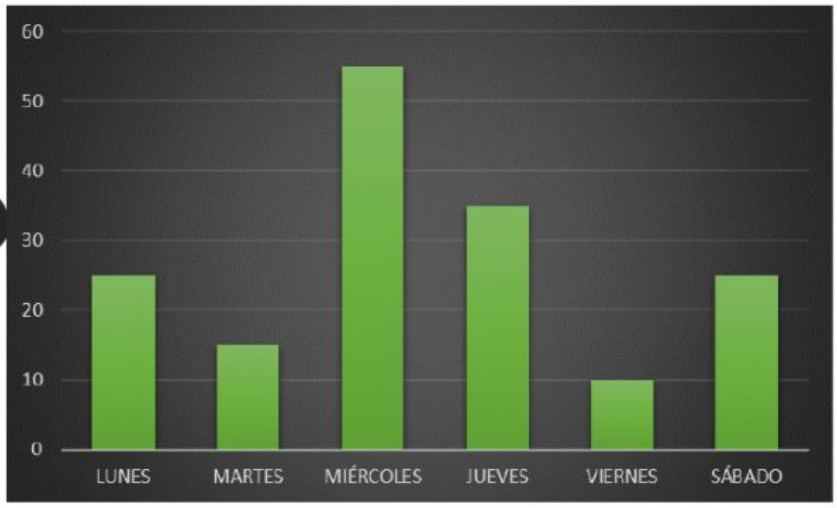

a. ¿Qué día se vendieron menos pizzas?
b. ¿Qué día se vendieron más pizzas?
c. ¿Cuántas pizzas se vendieron en toda la semana?
d. ¿Cuál es el porcentaje que corresponde al día de más ventas?
e. ¿Cuál es el porcentaje de ventas del día sábado?

f. ¿Cuál es el porcentaje de los días lunes y martes en conjunto?