PRE TEST GEOGRAFI KELAS X

DINAMIKA LITOSFER DAN DAMPAKNYA TERHADAP KEHIDUPAN

Nama	:	
Kelas	:	

1. Peristiwa Gempa bumi, tanah longsor, gunung meletus, merupakan contoh aspek Geosfer pada lapisan..
   A. Biosfer
   B. Atmosfer
   C. Hidrosfer
   D. Litosfer
   E. Eksosfer
2. Berikut ini yang bukan termasuk tenaga Eksogen yaitu..
   A. Erosi
   B. Pelapukan
   C. Gempa Bumi
   D. Sedimentasi
   E. Gerakan tanah

LIVEWORKSHEETS

3. Perhatikan gambar dibawah ini!

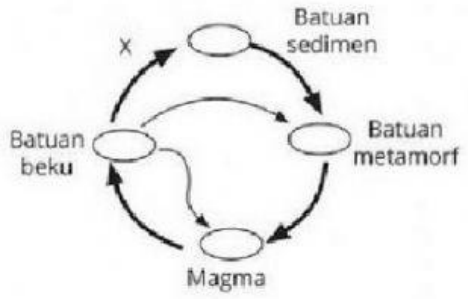

Proses yang terjadi pada huruf "x" adalah akibat…

A. Peleburan

B. Kompaksi

C. Suhu dan Tekanan

D. Peleburan

E. Sedimentasi

4. Terdapat tiga macam batuan penyusun kerak Bumi,yaitu..
   A. Batuan Beku, Batuan sedimen dan Batuan Metamorf
   B. Batuan Sedimen, Batuan Metamorf dan Batuan Karst
   C. Batuan Aluvial, Batuan Beku dan Batuan Sedimen
   D. Batuan Metamorf, Batuan Karst dan Batuan Obsidian
   E. Batuan Obsidian, Batuan Metamorf dan Batuan Beku

5. Berikut adalah jenis – jenis proses tenaga Eksogen dan Endogen, pasangkan jawaban yang benar dengan menarik garis !

LIVEWORKSHEETS

Pelapukan		
Seisme		
Vulkanisme		
Sedimentasi		
Tekhtonisme		

LIVEWORKSHEETS

6. Berikan keterangan jenis pelapukan dibawah ini dengan menggunakan *Check List* !

Pelapukan Organis

- [ ] Disebabkan oleh organisme seperti Jamur dan bakteri
- [ ] Berubahnya air garam menjadi kristal
- [ ] Adanya perbedaan temperature tinggi
- [ ] Akar tanaman merusak batuan
- [ ] Pembekuan air dalam batuan
- [ ] Perubahan kimia pada batuan
- [ ] Terjadi di daerah karts/kapur

Pelapukan Fisik/Mekanik



- [ ] Disebabkan oleh organisme seperti Jamur dan bakteri
- [ ] Berubahnya air garam menjadi kristal
- [ ] Adanya perbedaan temperature tinggi
- [ ] Akar tanaman merusak batuan
- [ ] Pembekuan air dalam batuan
- [ ] Perubahan kimia pada batuan
- [ ] Terjadi di daerah karts/kapur

Pelapukan Kimiawi

- [ ] Disebabkan oleh organisme seperti Jamur dan bakteri
- [ ] Berubahnya air garam menjadi kristal
- [ ] Adanya perbedaan temperature tinggi
- [ ] Akar tanaman merusak batuan
- [ ] Pembekuan air dalam batuan
- [ ] Perubahan kimia pada batuan
- [ ] Terjadi di daerah karts/kapur

LIVEWORKSHEETS

7. Berikan keterangan Struktur Horizon Tanah dibawah ini !

Horizon O

Horizon C

Horizon A

Horizon B

Horizon R



1 Pasang Disini

2 Pasang Disini

3 Pasang Disini

4 Pasang Disini

5 Pasang Disini

LIVEWORKSHEETS