REPASO TEMA 6 MATEMÁTICAS 1º

Completa los números que faltan.

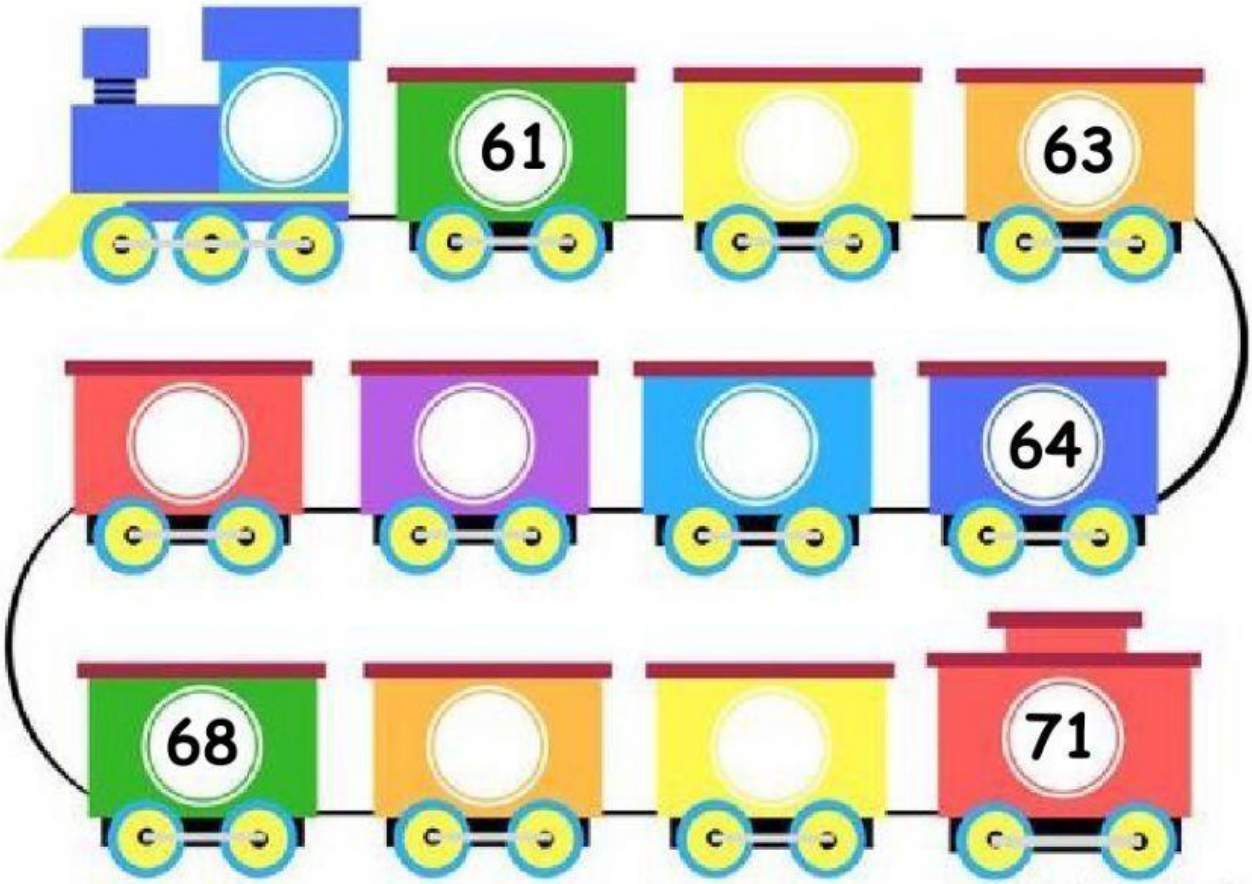

¿Qué número está representado? Marca.

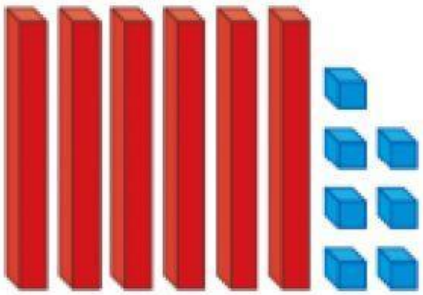

☐ 65

☐ 67

☐ 75

LIVEWORKSHEETS

Une.

Sesenta y nueve	60
Setenta y ocho	69
Sesenta	70
Setenta y cinco	75
Setenta	78

Escribe el número anterior o posterior.

Número anterior al 66 ..... ☐

Número anterior al 69 ..... ☐

Número anterior al 75 ..... ☐

Número posterior al 60 ..... ☐

Número posterior al 69 ..... ☐

Número posterior al 74 ..... ☐

LIVEWORKSHEETS

Lee y sigue las instrucciones.

- ✓ Coloca la estrella a la izquierda del círculo azul.
- ✓ Coloca el triángulo a la derecha del círculo rojo.
- ✓ Coloca el cuadrado a la derecha del círculo azul.
- ✓ Coloca la cruz a la izquierda del círculo rojo.



- ✓ Coloca el perro a la izquierda de la casa.
- ✓ Coloca el gato a la derecha de la casa.
- ✓ Coloca la tortuga a la derecha del árbol.
- ✓ Coloca el pájaro a la izquierda del árbol.



LIVEWORKSHEETS