Ulangan Harian

ORGANISASI KEHIDUPAN

Nama :

Kelas/No absen:

Miss Reza SMP Widiatmika

LIVEWORKSHEETS

Tingkatan Organisasi Kehidupan

Tentukan tingkatan organisasi kehidupan dibawah ini!

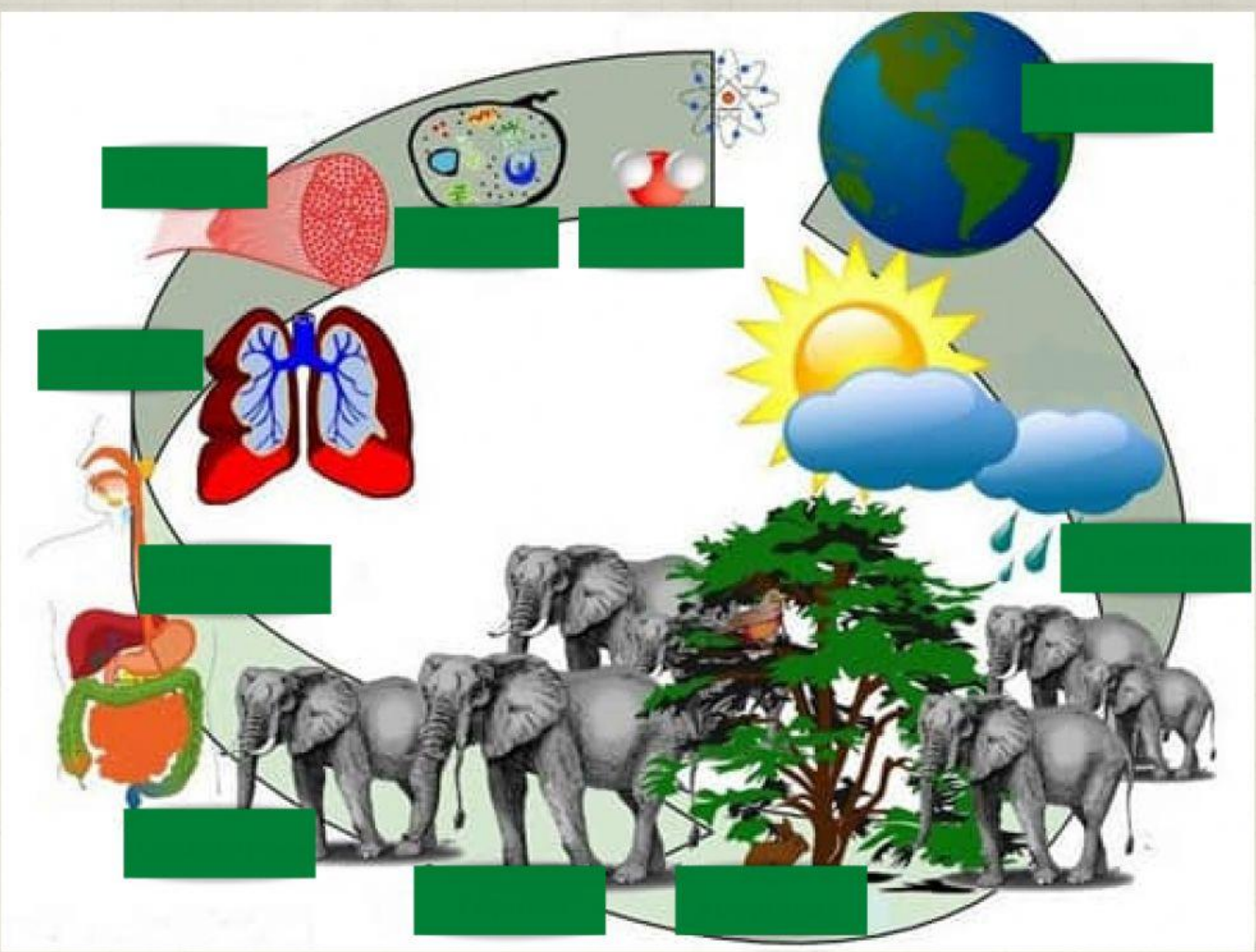

Miss Reza SMP Widiatmika

LIVEWORKSHEETS

Struktur Sel

Pasangkanlah gambar sel dengan nama sel dengan tepat dan benar!

Sel hewan

Sel Tumbuhan

Miss Reza SMP Widiatmika

LIVEWORKSHEETS

Bagian-bagian Sel Tumbuhan

Pilihlah jawaban yang paling benar dan tepat!

Tempat membuat protein

Untuk membuat & menyalurkan bahan-bahan yg dibutuhkan oleh organel2 sel

Untuk mengatur seluruh kegiatan sel

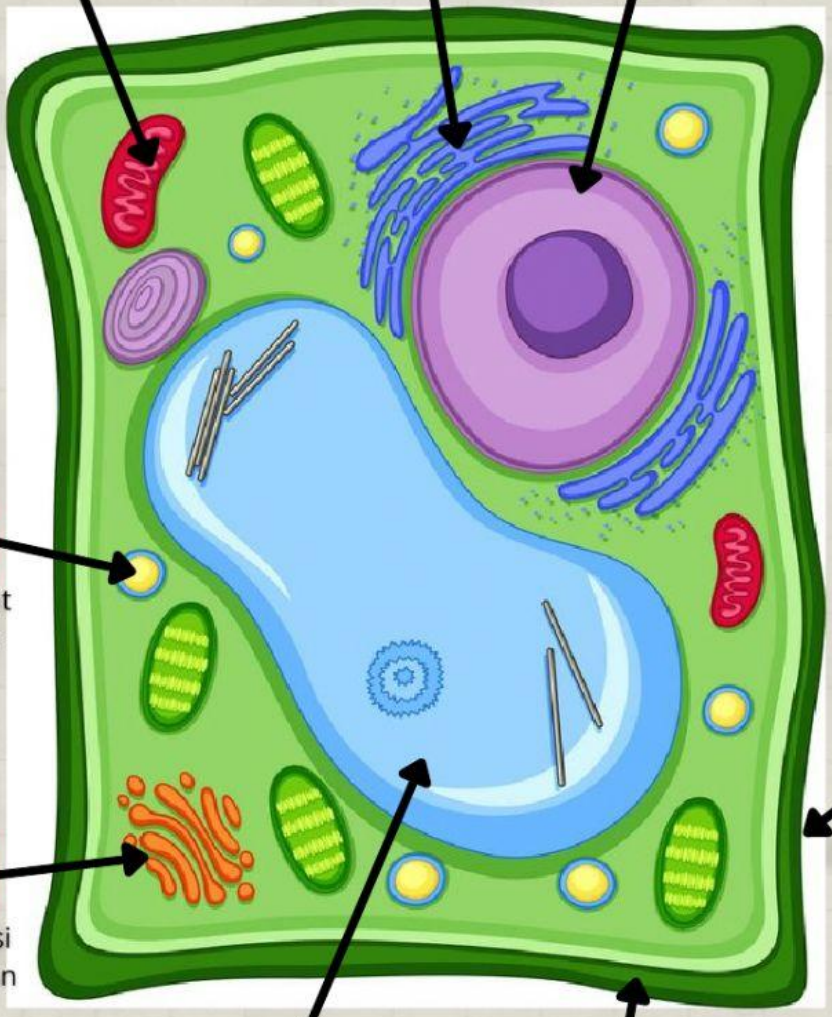

untuk mencerna zat sisa, makanan/zat asing

Untuk memodifikasi bahan2 yg dihasilkan oleh RE & menyalurkannya ke organel-organel yg membutuhkan

Untuk menjaga bentuk sel tumbuhan agar tidak berubah

untuk menyimpan cadangan makanan

Untuk melindungi & mengatur lalu lintas zat yg keluar masuk sel

Miss Reza SMP Widiatmika

LIVEWORKSHEETS

Bagian-bagian Sel Hewan

Pilihlah jawaban yang paling benar dan tepat!

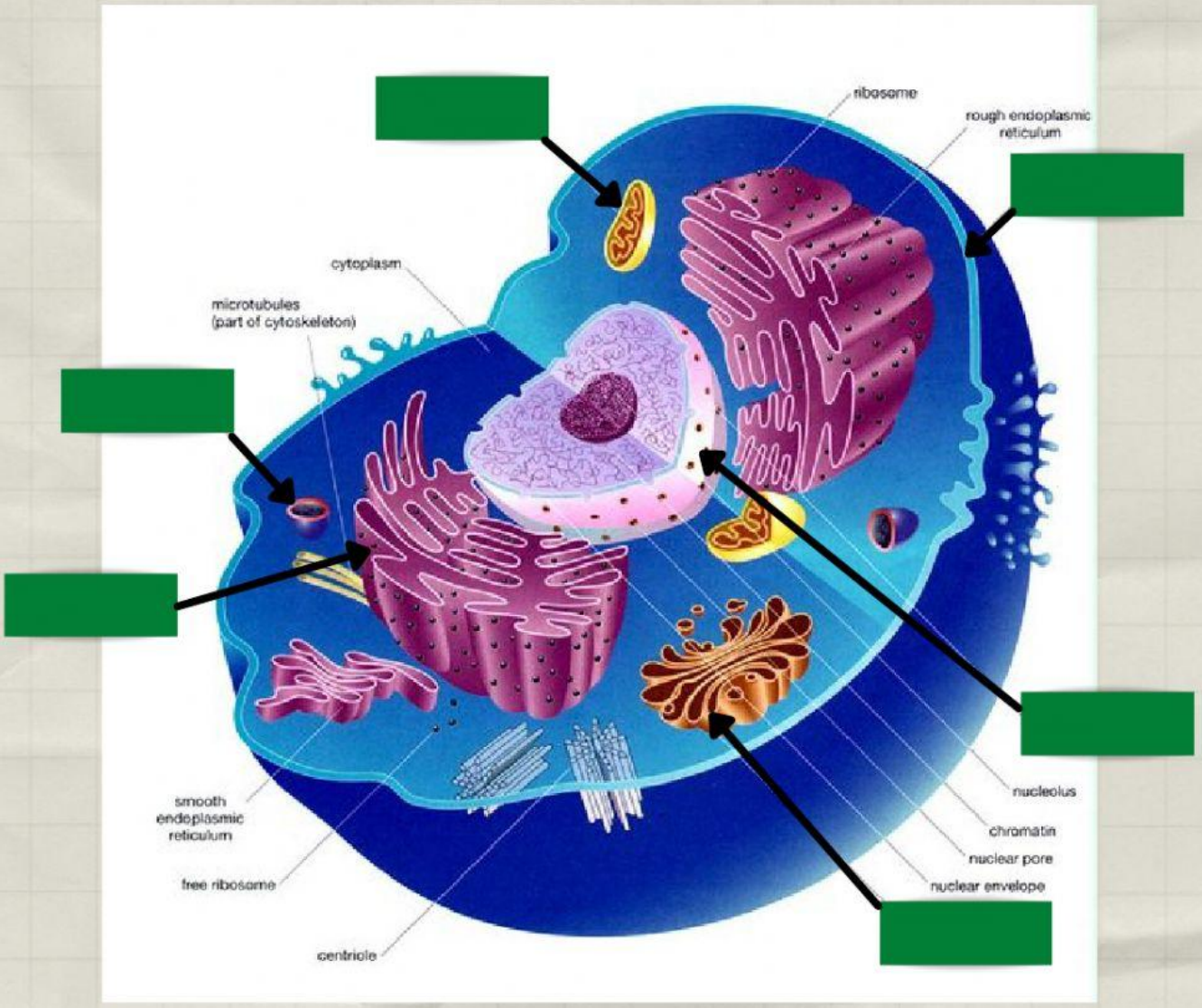

Miss Reza SMP Widiatmika

LIVEWORKSHEETS

Soal-soal

Jawablah dengan tepat dan benar!

1. Bagian sel yang bukan organel adalah....
   a. Nukleus
   b. Mitokondria
   c. Vakuola
   d. Ribosom

2. Urutan sistem organisasi kehidupan yang benar adalah....
   a. sel --> organ --> jaringan --> sistem organ --> organisme
   b. sel --> jaringan --> sistem organ --> organ --> organisme
   c. sel --> organ --> sistem organ --> jaringan --> organisme
   d. sel --> jaringan --> organ --> sistem organ --> organisme

3. Sel prokariotik tidak memiliki membran sel. Contohnya adalah....
   a. Manusia
   b. Bakteri
   c. Ular
   d. Padi

4. Perhatikan gambar berikut!

   Gambar tersebut termasuk....
   a. Sistem organ
   b. Sel
   c. Organisme
   d. Organ

5. Sebutkan 3 macam organ pada tumbuhan!

6. Apa akibatnya jika sel tidak memiliki dinding sel. jelaskan!

LIVEWORKSHEETS