Suatu persegi panjang berukuran panjang 8 cm dan lebar 9 cm. Di antara persegi berikut yang lebih luas daripada persegi panjang tersebut adalah ....

a. 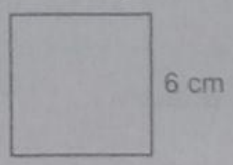


c. 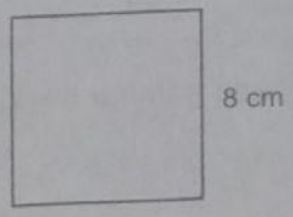


b. 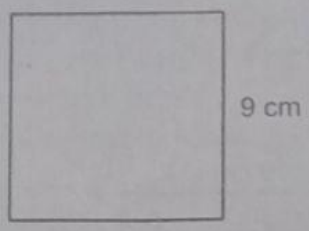


d. 


Fitri memiliki 2 buah bingkai foto berbentuk persegi panjang yang sama ukurannya. Jika panjang bingkai 17 cm dan lebar 12 cm, maka luas seluruh bingkai foto Fitri adalah ....

a. 350 $cm^2$
b. 408 $cm^2$
c. 450 $cm^2$
d. 600 $cm^2$

Sebuah aula di sekolah Andra panjangnya 18 m dan lebarnya 10 m. Luas aula tersebut adalah ....

a. 134 $m^2$
b. 144 $m^2$
c. 162 $m^2$
d. 180 $m^2$

Paman Heru memiliki sebidang tanah yang berbentuk persegi dengan keliling 84 m. Luas tanah Paman Heru adalah ....

a. 211 $m^2$
b. 351 $m^2$
c. 441 $m^2$
d. 481 $m^2$

Yosef mempunyai kotak pensil berbentuk persegi panjang dengan luas 85 $cm^2$. Jika kotak pensil tersebut lebarnya 5 cm, maka ukuran panjangnya adalah ....

a. 15 cm
b. 17 cm
c. 20 cm
d. 23 cm

Diketahui satu persegi luasnya sama dengan 2 kali luas segitiga. Jika sisi persegi tersebut 16 cm, luas 1 segitiga adalah ....

a. 128 $cm^2$
b. 148 $cm^2$
c. 160 $cm^2$
d. 184 $cm^2$

Permukaan meja makan Bu Indri berbentuk persegi panjang dengan panjang 14 dm dan lebar 9 dm. Luas meja tersebut adalah ....

a. 96 $dm^2$
b. 116 $dm^2$
c. 126 $dm^2$
d. 158 $dm^2$

Keliling segitiga $ABC$ pada gambar di samping adalah ....

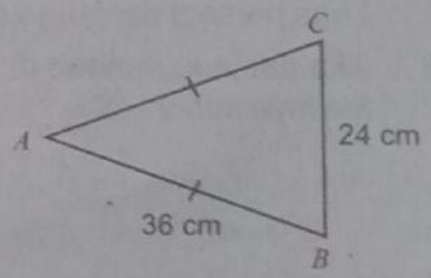


a. 60 cm
b. 84 cm
c. 88 cm
d. 96 cm



LIVEWORKSHEETS