مدرسة رأس الخيمة الحديثة الخاصة)
ورقة عمل (3)
الصف: السادس

المادة: رياضيات
الشعبة: .....
الاسم:.....

1.

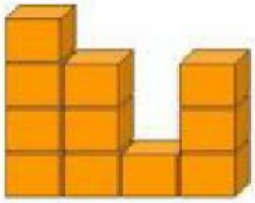

قدر الحجم بالوحدات المكعبة

A 11

B 20

C 10

D 12

2.

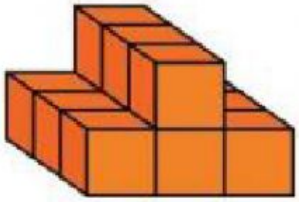

قدر الحجم بالوحدات المكعبة

A 8

B 12

C 18

D 9

3.

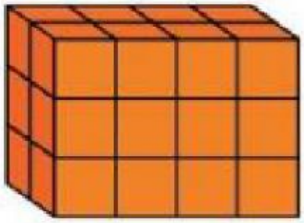

قدر الحجم بالوحدات المكعبة

A 27

B 12

C 24

D 22

LIVEWORKSHEETS