POLÍGONOS

- **Los elementos de los polígonos son: lados, vértices y ángulos.**
- **Por el número de lados, los polígonos pueden ser: triángulos, si tienen 3 lados; cuadriláteros, si tienen 4; pentágonos, si tienen 5; o hexágonos, si tienen 6.**

Seño MªJesús

ESCRIBE: *lado, vértice* y *ángulo* donde corresponda.

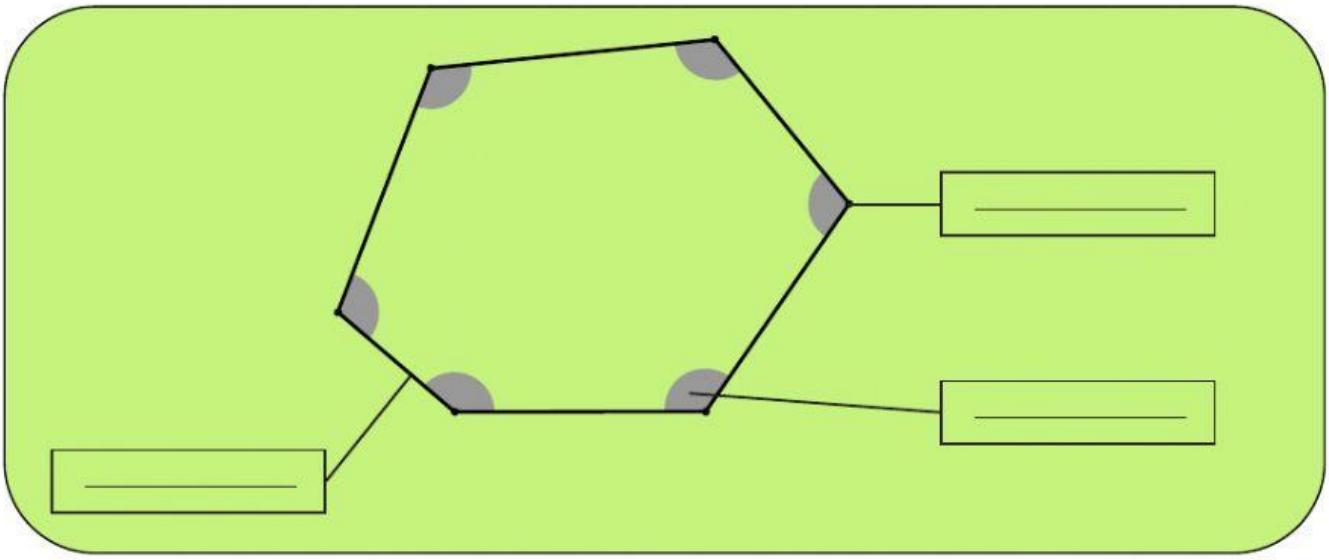

Observa los polígonos y completa la tabla.

	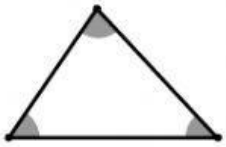		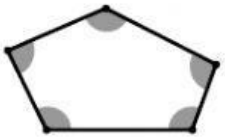	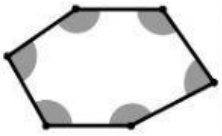
Número de lados				
Número de vértices				
Número de ángulos				
Nombre				