GERHANA BULAN

NAMA : _____ KELAS : _____

A. Berdasarkan gambar di bawah ini, jawablah pertanyaan di bawah ini. Tulis di dalam kotak yang disediakan.

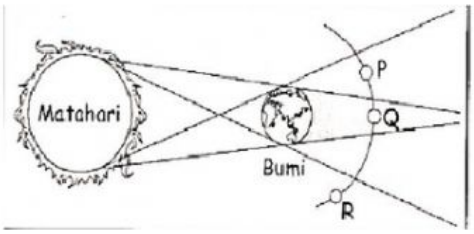

1. Gerhana bulan total berlaku apabila bulan berada di ☐
2. Gerhana bulan sebagian berlaku apabila bulan berada di ☐
3. Gerhana bulan tidak berlaku apabila bulan berada di ☐

B. Pasangkan nama jenis gerhana bulan dengan gambar jenis gerhana bulan yang tepat!

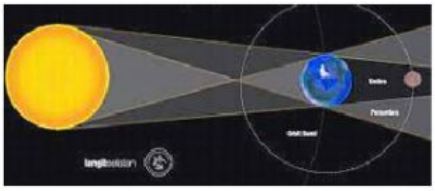

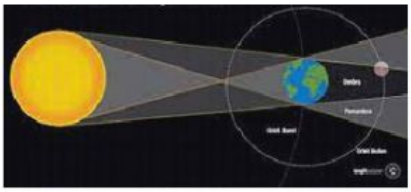

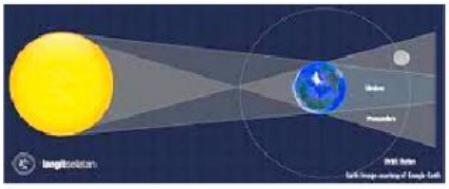

Gerhana bulan sebagian

Gerhana bulan penumbra

Gerhana bulan total

LIVEWORKSHEETS

C. Lengkapi pernyataan di bawah ini dengan jawaban yang benar!

1. Fenomena Gerhana Bulan terjadi apabila Matahari, Bumi, dan Bulan berada dalam satu _____
2. Gerhana bulan terjadi pada _____ hari
3. Gerhana bulan biasanya terjadi pada fase bulan _____
4. Ada dua macam bayangan bumi yang timbul. Ada bayangan bumi yang berwarna gelap disebut _____. Sedangkan bayangan yang berwarna abu-abu disebut _____.
5. Ada 3 jenis gerhana bulan, yaitu _____, _____, dan _____
6. Gerhana bulan penumbra terjadi apabila posisi bulan berada pada _____ bumi
7. Gerhana bulan sebagian terjadi apabila posisi bulan sebagian masuk pada bayangan _____ dan sebagian ada pada bayangan _____
8. Gerhana bulan total terjadi apabila seluruh permukaan bulan masuk ke dalam bayangan _____ bumi.
9. Ketika terjadi gerhana bulan total, bulan menjadi berwarna _____ karena cahaya matahari dibelokkan oleh atmosfer bumi.
10. Gerhana bulan penumbra akan terlihat seperti bulan _____, namun warnanya lebih redup.

D. Gambarlah di buku tulis tema kalian tentang skema GERHANA BULAN TOTAL, berilah keterangan pada setiap gambar dan warnailah sesuai gambarnya! (Gunakan pensil warna atau krayon jika ada)

LIVEWORKSHEETS