UPH MATEMATIKA KELAS 4 A
(Keliling dan luas persegi, persegi panjang, segitiga)
SD Negeri Muncul 02
TAHUN PELAJARAN 2021/2022

Bacalah basmalah sebelum mengerjakan soal, dan

cermati betul pertanyaannya…..

1. Perhatikan gambar berikut!

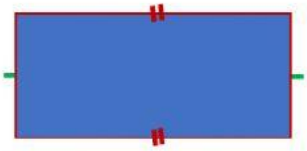

Gambar bangun di samping adalah bangun ….

A. Persegi
B. Segitiga
C. persegi panjang
D. belah ketupat

2. Bangun datar yang memiliki empat sisi sama panjang dan keempat sudutnya sikusiku adalah bangun ….

A. Persegi
B. Persegi Panjang
C. segitiga
D. belah ketupat

3. Perhatikan gambar berikut!

Gambar bangun di samping adalah bangun ….

A. segitiga sama kaki
B. segitiga sama sisi
C. segitiga siku-siku
D. segitiga sembarang

4. Perhatikan gambar di bawah ini!

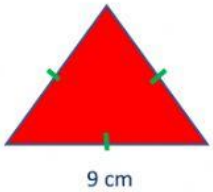

Keliling gambar bangun di samping = … cm.

A. 18
B. 26
C. 27
D. 28

5. Perhatikan gambar berikut!

Keliling gambar bangun di samping = … cm.

A. 24
B. 42
C. 46
D. 48

LIVEWORKSHEETS

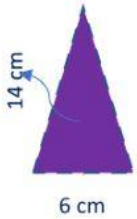

6. Perhatikan gambar berikut!

Luas gambar bangun di samping = … cm².

A. 84 C. 48

B. 74 D. 42

7. Sebuah kebun berbentuk persegi kelilingnya 32 m.

Panjang salah satu sisinya adalah ….

A. 9 m C. 7 m

B. 8 m D. 6 m

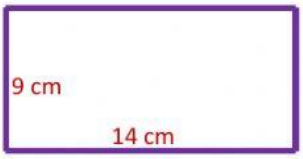

8. Perhatikan gambar berikut!

Keliling gambar bangun di samping = … cm.

A. 23 C. 46

B. 44 D. 48

9. Selembar kain berbentuk persegi panjang dengan ukuran panjang 200 cm dan lebar 75 cm. Keliling kain tersebut adalah … cm.

A. 550 C. 450

B. 525 D. 275

10. Diketahui keliling persegi panjang 96 cm, jika diketahui panjang 32 cm, maka ukuran lebar = … cm.

A. 128 C. 26

B. 64 D. 16

II. Isilah dengan tepat

11. Sebuah persegi panjang berukuran panjang 15 cm dan lebarnya 8 cm. Luas persegi panjang = ... cm² .

12. Sebuah persegi panjang memiliki luas 24 cm² yang panjangnya 6 cm, maka lebarnya adalah …..... cm

13. Jika keliling persegi ABCD 80 cm, maka panjang sisinya adalah …... cm

14. Meja belajar Zahra panjangnya 9 dm dan lebarnya 7 dm. Keliling meja belajar Zahra adalah …..... dm

15. Luas segitiga 14 cm² dengan panjang alasnya 4 cm. Tinggi segitiga tersebut adalah ..... cm

LIVEWORKSHEETS