RESUELVE ESTOS PROBLEMAS:

1. ROSENDO TIENE ESCONDIDAS EN UNA BOLSA ALGUNAS CANICAS.
   LOLA TIENE 3 CANICAS Y YERAI TIENE 2 CANICAS.
   AMBOS QUIEREN SABER CUÁNTAS TIENE ROSENDO Y POR ELLO ROSENDO LE DA UNA PISTA: TENGO TANTAS CANICAS COMO LAS QUE TENÉIS LOS DOS JUNTOS.

¿CUÁNTAS CANICAS TIENE PEDRO?



2. ALEJANDRA, MATEO Y ALMA ESTABAN JUGANDO EN LAS CONSTRUCCIONES.
   - ALEJANDRA HA CONSTRUIDO UNA TORRE DE 5 PIEZAS.
   - MATEO HA CONSTRUIDO UNA TORRE DE 3 PIEZAS.

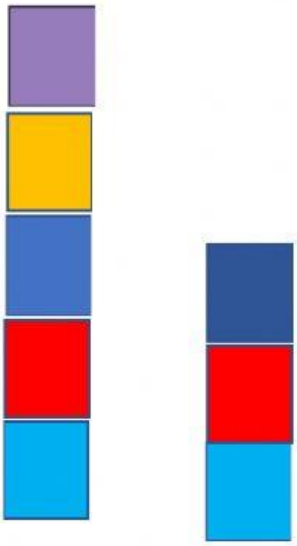

   - LA SEÑORITA LE PIDE A ALMA QUE CONSTRUYA TAMBIÉN OTRA TORRE:
     NI MÁS ALTA QUE LA DE ALEJANDRA NI MÁS BAJA QUE LA DE MATEO NI IGUAL QUE ESAS DOS.

     ¿CUÁNTAS PIEZAS TIENE QUE TENER LA TORRE DE ALMA? (SEÑALA CON UNA X DENTRO DEL CUADRADO)

3 ☐ 4 ☐ 5 ☐ 6 ☐

3. ANAMARÍA TIENE 6 LÁPICES DE COLORES, Y DAVID TIENE 4. ¿CUÁNTOS LÁPICES LE TIENE QUE DAR JESÚS A DAVID PARA QUE TENGA LOS MISMO QUE ANA MARÍA?

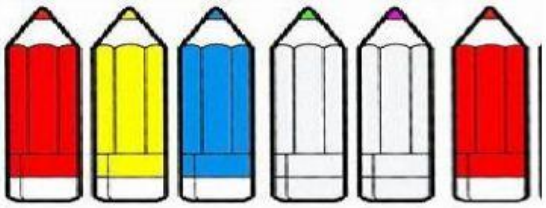

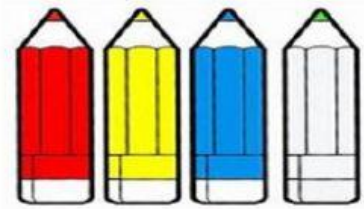

4. SOBRE UNA MESA HAY 3 CAJAS CON PIRULETAS.

ANTONIO QUIERE LA CAJA QUE TIENE MENOS DE 3 PIRULETAS.

ANDREA QUIERE LA CAJA QUE TIENE MÁS DE 3PIRULETAS Y MENOS DE 5.

MARÍA QUIERE LA CAJA QUE TIENE MÁS DE 5 PIRULETAS.

(UNE CADA NOMBRE CON LA CAJA QUE QUIEREN)

ANTONIO

MARÍA

ANDREA