١ إذا كان ٩ ^{س} × ٣ = ٢٧ ، فإن س =

أ ١ ب ٢ ج ٣ د ٤

٢ إذا كان ١٠٠ قلم = ١٠ ريال فكم يساوي قيمة ١٠ أقلام ؟

أ ١ ب ٢ ج ٣ د ٤

٣ إذا كانت مساحة المربع المظلل = ٦ سم^{٢}
أوجد مساحة المربع الكبير أ ب جـ د

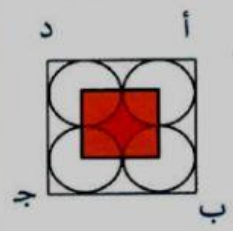

أ ٢٠ ب ٢٢
ج ٢٤ د ٣٦

٤ ستة أعداد متتالية ، إذا كان مجموع أول ٣ أعداد ١٠٨ ، فما مجموع آخر ٣ أعداد ؟

أ ١١٥ ب ١١٦ ج ١١٧ د ١١٨

٥ سيارة سرعتها ٥٠ كم / س انخفضت سرعتها إلى ٣٥ كم / س ، كم النسبة المئوية للانخفاض

أ ٢٥٪ ب ٣٠٪ ج ٣٥٪ د ٤٠٪

٦ إذا كان ن عدد زوجي فأي مما يأتي يكون فردي ؟

أ ٢ ن^{٢} + ٣ ب ن + ٢
ج ٢ ن^{٢} + ٤ د ٢(ن + ١)

٧ إذا كان للدائرتين نفس المركز
فما الفرق بين محيطي الدائرتين ؟
أ ب = ٣ سم

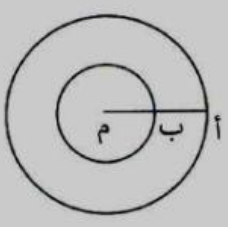

أ ٣ط ب ٦ط
ج ٩ط د ١٢ط

٨ إذا كان $\frac{س+٣}{٥}$ = صفر فإن س = ...

أ -٣ ب ٣ ج ١ د ٥

٩ محمد يمكن أن يشتري ٥ أقلام وحقيبتين أو ٣ حقائب ، فما أكبر عدد من الأقلام يمكن أن يشتري ؟

أ ١٢ ب ١٤ ج ١٥ د ١٧

١٠ أوجد نسبة مساحة المظلل إلى مساحة المربع الكبير

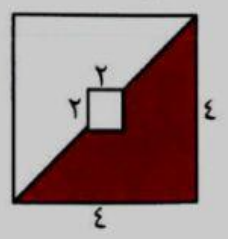

أ $\frac{١٢}{٣٢}$ ب $\frac{١١}{٣٢}$
ج $\frac{١}{٣}$ د $\frac{١٥}{٣٢}$

١١ بلاطة كبيرة مقاسها ٣٠٠سم × ١٠٠سم أردنا وضع بلاط صغير أبعاده ٣٠ سم × ٢٠ سم داخله ، كم بلاطة صغيرة نستطيع وضعها

أ ٢٠ ب ٣٠ ج ٥٠ د ٧٥

١٢ ١٠ صناديق فيهم أقلام رصاص وأقلام حبر ، ٤ منهم حبر و ٥ رصاص و ٢ حبر ورصاص ، كم عدد الصناديق الفارغة ؟

أ ٣ ب ٤ ج ٥ د ٧

١٢ إذا كان ٥ س$^{-١}$ = ٣ س$^{-١}$ فإن س =

أ ١ ب ٢ ج ٣ د ٤

١٣ ثلاثة أخوة حفروا بئر الأول حفر $\frac{١}{٢}$ البئر والثاني حفر $\frac{١}{٣}$ البئر والثالث حفر ٨ متر، ما سعة البئر

أ ٢٤ ب ٤٨ ج ٥٦ د ٨١

١٤ صندوق به ٦٠ تفاحة من بين كل ١٢ تفاحة يوجد ٨ صالحين ، أوجد عدد التفاح الفاسد

أ ٢٠ ب ٣٠ ج ٣٥ د ٥٠

١٥ إذا كانت س ع = ٢ ع ص

فأوجد $\frac{س ص + ع ص}{س ع}$

أ ٢ ب ٥٣ ج ٣ د ١

١٦ مثلث اضلاعه ٥سم ، ٩سم ، فأي مما يأتي لا يصلح أن يكون الضلع الثالث ؟

أ ٤ ب ١١ ج ١٢ د ١٣

LIVEWORKSHEETS