اسم الطالب : ---------- اختبار دوري الباب التاسع (٤) لمادة الرياضيات ٢ / ----------

س١ من الشكل المجاور أوجد ما يلي :-

(أ) ما عدد القوارب التي أبحر كل منها ٤٠٠ دقيقة على الأقل ؟

عدد القوارب = + = قوارب

(ب) ما نسبة القوارب التي أبحرت في ١٩٩ دقيقة على الأكثر ؟

نسبة القوارب = ـــــــ × 100 ≈

س٢ أوجد مقاييس النزعة المركزية لعمر مجموعة من الموظفين بالسنوات هي

١٨ ، ١٨ ، ٢٢ ، ٢٤ ، ٢٤ ، ٣٢ ؟ المتوسط الحسابي = ـــــــ =

المنوال هو الوسيط = ـــــــ =

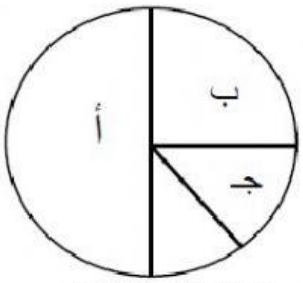

س٣ ما النسبة المئوية التي يمثلها كل من القطاعات أ ، ب ، جـ ؟

أ = ب = جـ =

س٤ في الشكل أدناه اكتب كل عنصر من عناصر الصندوق وطرفيه في مكانه الصحيح ؟

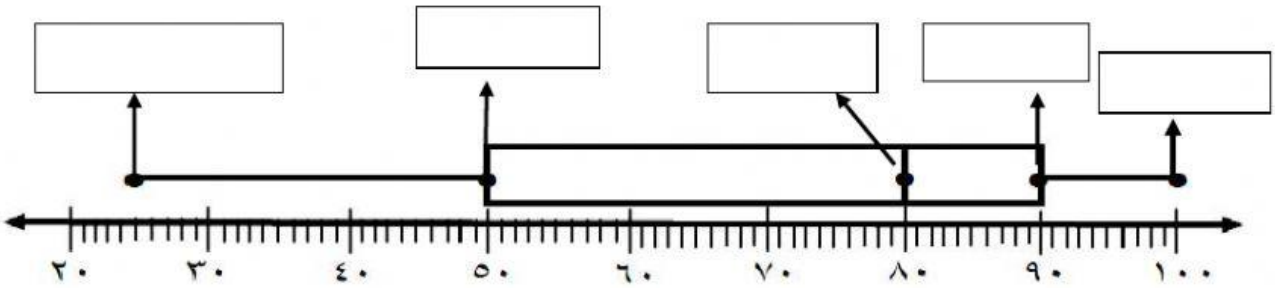

س٥ اختر طريقة التمثيل الأنسب للجملة (عدد طلاب الصف الثاني متوسط الحاصلين على التقديرات ممتاز ، جيد جدا ، جيد ، مقبول ؟ ----------

س٦ من الرسم المجاور فان المدى الربيعي =

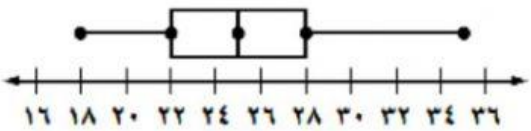

(أ) ٦ (ب) ١٧

LIVEWORKSHEETS

اسم الطالب : - ---------- اختبار دوري الباب التاسع (٤) لمادة الرياضيات ٢ / ----------

س١ استعمل الشكل المجاور لتصف الأصناف المختلفة لمبيعات متجر .

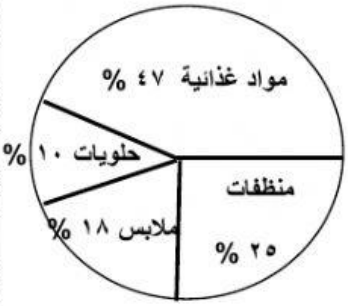

مبيعات المتجر تقريباً مواد غذائية

القطاع منظفات. ملابس وحلويات

س٢ التمثيل الصحيح للبيانات بالصندوق وطرفيه لدرجات الطلاب في الرياضيات هو

٢٥ ، ٥٠ ، ٥٠ ، ٥٠ ، ٥٠ ، ٧٠ ، ٧٠ ، ٨٠ ، ٩٠ ، ٩٠ ، ٩٠ ، ٩٠ ، ٩٠ ، ١٠٠ ، ١٠٠ ، ١٠٠

(أ)

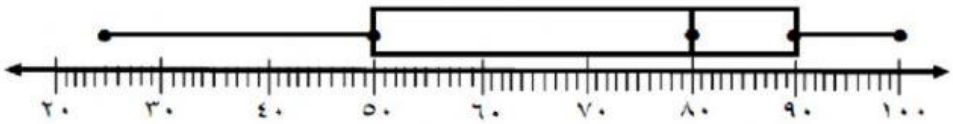

(ب)

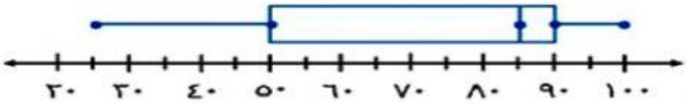

س٣ اختر طريقة التمثيل المناسبة للجملة (توزيع عدد سكان المملكة العربية السعودية حسب الفئات العمرية) ؟ ----------

س٤ استعمل المدرج التكراري في حل ما يلي :-

(أ) ما عدد الدول التي تقل مساحتها عن ٤٠١ كلم٢ ؟

عدد الدول = + = دولة

(ب) ما نسبة الدول التي تقل مساحتها بين ٢٠١ ــ ٦٠٠ كلم٢ ؟ ——— × 100 =

س٥ الجدول أدناه يمثل عدد الطلاب الحاصلين على تقدير جيد جداً في ستة فصول من الصف الثاني متوسط مثّل بالساق والورقة

الفصل	أ	ب	جـ	د	هـ	و
العدد	١٣	٢٨	٣٦	٩	٢٧	٣٠

الساق	الورقة

LIVEWORKSHEETS

١ قياس زاوية قطاع الذي نسبته ٢٥% ----------

٢ من مقاييس التشتت هي ----------

٣ القيمة الأكثر تكراراً أو شيوعاً بين القيم هي ----------

٤ انسب طريقة لتمثيل دخل الأسرة على المتطلبات المنزلية هي ----------

٥ نرتب البيانات العددية في التمثيل بالساق والورقة ترتيباً ----------

٦ الربيع الأعلى. الربيع الأدنى = ----------

٧ من الرسم المجاور فإن



المدى = ---------- الربيع الأعلى = ----------

والوسيط = ---------- الربيع الأدنى = ----------

والمنوال = ---------- المدى الربيعي = ----------

٨ من خلال التمثيل المزدوج للساق والورقة أكمل :

درجات الاختبار الشهري لفصلين في العلوم

الفصل (أ)	الساق	الفصل (ب)
٢ ٣ ٣ ٣ ٤ ٦ ٨ ٩ ٩	٠	٨ ٧ ٧ ٧ ٦ ٦ ٣ ٢
٠ ٠ ٠ ١ ٢ ٢ ٦	١	٥ ٤ ٣
١|٠ = ١٠ درجة		١|٣ = ١٣ درجة

فان المدى في الفصل ب هو ----------

عدد طلاب الفصل (أ) ----------

أعلى درجة في الفصل (أ) هي ----------

LIVEWORKSHEETS