تقدير الحجم وقياسه

اسم الطالبة / .....

أوجدى حجم كلاً من المجسمات التالية :

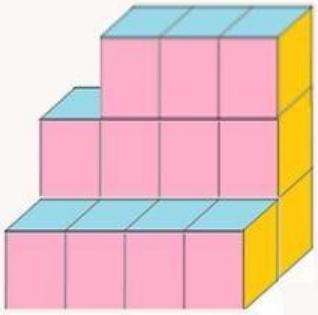

..... وحدة مكعبة

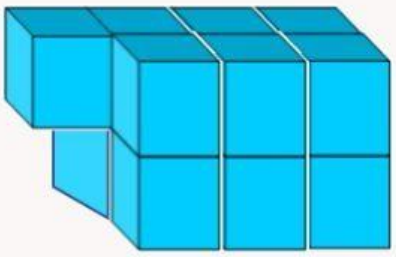

..... وحدة مكعبة

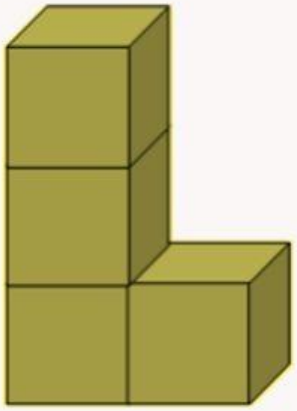

..... وحدة مكعبة

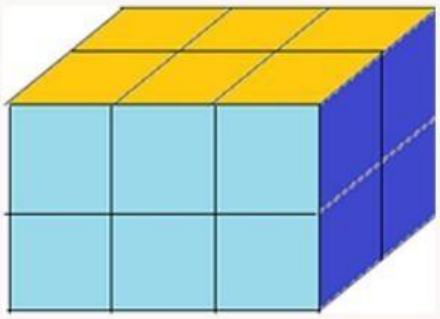

..... وحدة مكعبة

LIVEWORKSHEETS