TECNOLOGÍA 4º ESO

INSTALACIONES EN VIVIENDAS_GAS_CALEFACCIÓN

ALUMNO: _____

1. Indica **a qué corresponde** el siguiente dibujo y señala los distintos **elementos** que lo componen:

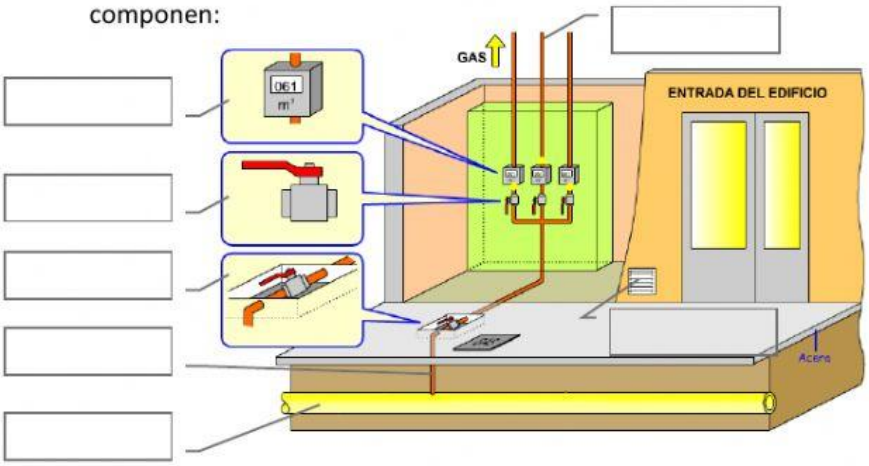

- Llave de acometida
- Contadores
- Montantes
- Acometida
- Rejilla de ventilación
- Llaves individuales
- Red de distribución

Corresponde a la instalación _____

2. Identifica los **sistemas de calefacción** a que corresponden las siguientes imágenes:

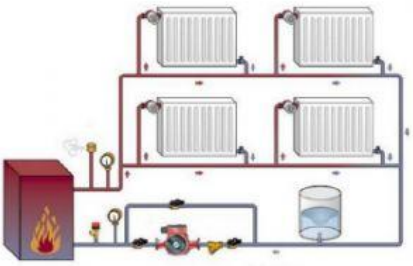

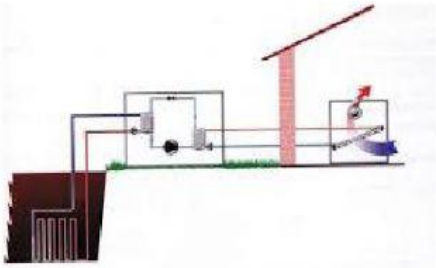

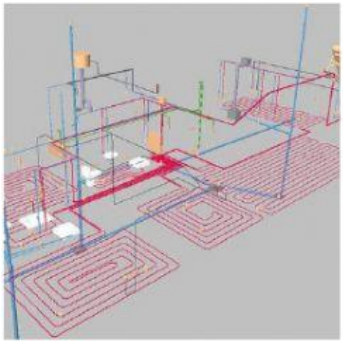

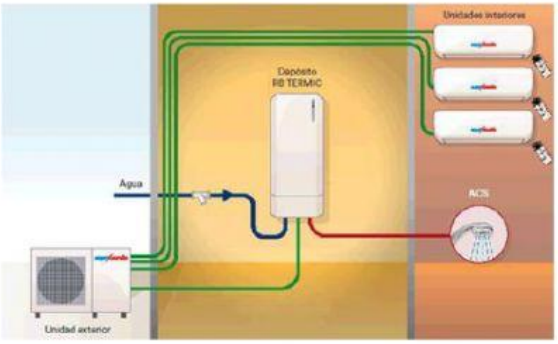

LIVEWORKSHEETS

3. Indica **a qué corresponde** el siguiente dibujo y señala los distintos **elementos** que lo componen:

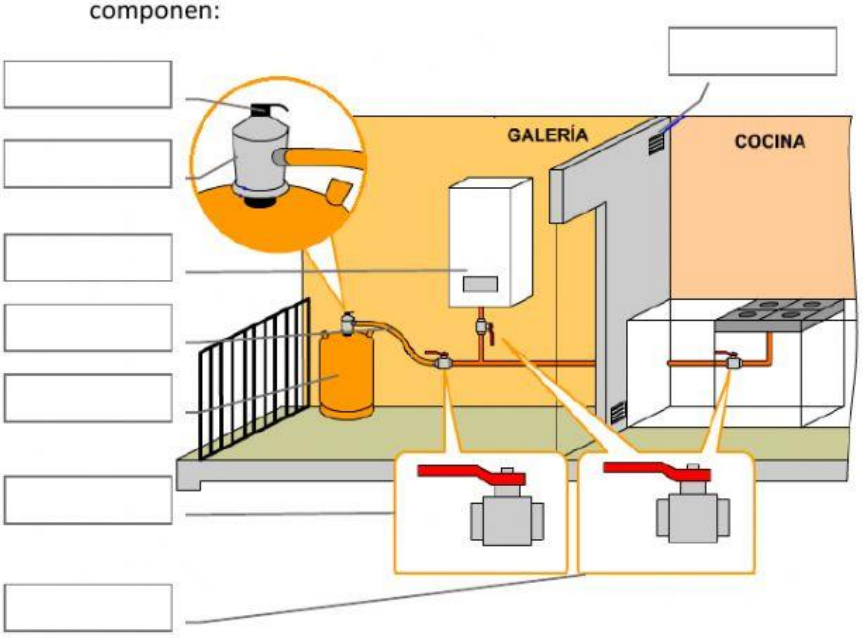

- Tubo flexible
- Válvula
- Regulador
- Llave general
- Rejilla de ventilación
- Llaves individuales
- Caldera
- Bombona

Corresponde a la instalación _____

4. Indica el **sensor** que será necesario para el control de cada sistema de esta vivienda:

LIVEWORKSHEETS