GEOMETRIA

- ERREPASOA: Orientazioa, poligonoak, gorputz geometrikoak,

1. Adierazi kolore bakoitzak egiten duen ibilbidea.

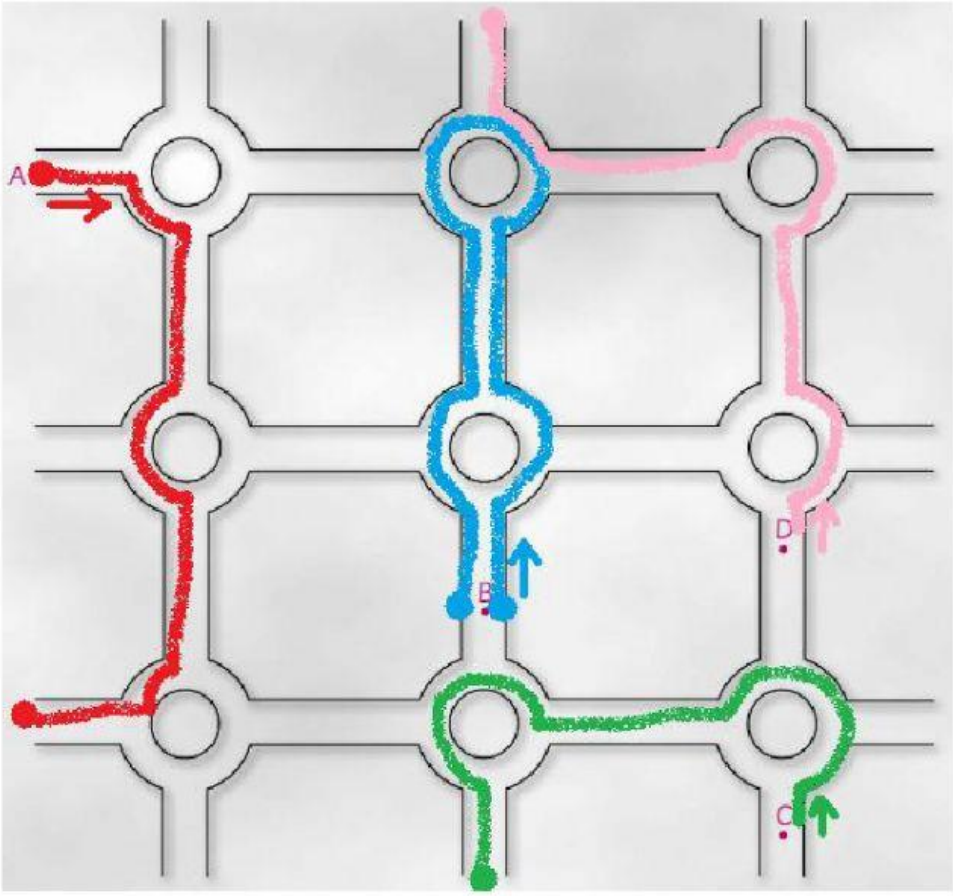

Kotxe gorriak: lehenengo biribilgunean _____, bigarren biribilgunean _____ eta hirugarren biribilgunean _____.

Kotxe urdinak: lehenengo biribilgunean _____, bigarren biribilgunean _____ eta hirugarren biribilgunean _____.

Kotxe berdeak: lehenengo biribilgunean _____ eta bigarren biribilgunean _____.

Kotxe larrosak: lehenengo biribilgunean _____, bigarren biribilgunean _____ eta hirugarren biribilgunean _____.

LIVEWORKSHEETS

2. Sailkatu irudi hauek POLIGONO, EZ POLIGONO edo GORPUTZ GEOMETRIKOETAN.



3. Zenbatu gorputz hauetako kubo kopurua. Gogoratu kuboek ez dutela flotatzen, beraz, goian daudenen azpian beti egongo da kuboren bat.

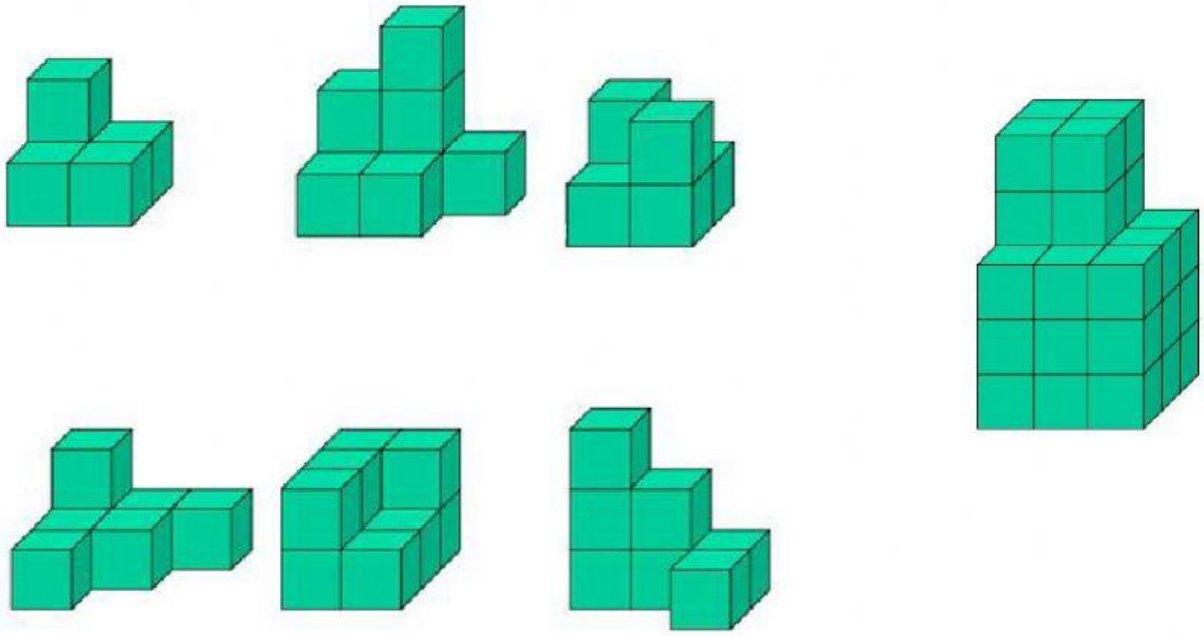

LIVEWORKSHEETS

4. Osatu taulak:

	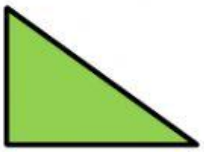		
ERPIN KOPURUA			
ALDE KOPURUA			
ANGELU KOPURUA			
DIAGONAL KOPURUA			
POLIGONOAREN IZENA			

					
POLIGONOAREN IZENA					
AURPEGI ZAPAL KOPURUA (Oinarriak eta aldeak)					
ERTZ KOPURUA					
ERPIN KOPURUA					

LIVEWORKSHEETS