Họ và tên: _____ **Lớp:** ____

Công nghệ 8 - ÔN TẬP CÁC MỐI GHÉP

Kéo thả nội dung phù hợp vào các số đúng cấu tạo các mối ghép sau:

1

2

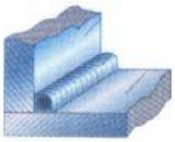

3

4

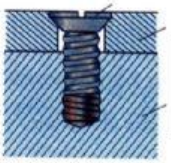

5

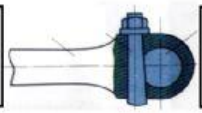

6

7

8

9

MG hàn	MG vít cấy	MG đinh tán	Khớp tịnh tiến	MG chốt
MG đinh vít	MG bu lông	Khớp quay	MG then	

Nối nội dung (đặc điểm, ứng dụng) phù hợp với các mối ghép sau:

Các chi tiết trượt lên nhau sinh ra lực ma sát lớn làm cản trở chuyển động	**MG đinh tán**	Ghép các chi tiết có chiều dày không lớn
Cấu tạo đơn giản, dễ tháo lắp nên được dùng rộng rãi	**MG bu lông**	Kết cấu cầu, giàn cầu trục, các dụng cụ sinh hoạt gia đình
Chịu được nhiệt độ cao, chịu được lực lớn và chấn động mạnh ...	**MG vít cấy**	Ghép các chi tiết ghép chịu lực nhỏ
Thường lắp bạc lót hoặc vòng bi để giảm ma sát	**MG đinh vít**	Bản lề cửa, ổ trục quạt điện, vòng bi, ...
Quay quanh một trục cố định	**Khớp tịnh tiến**	Ghép các chi tiết chiều dày lớn
Mọi điểm trên vật có chuyển động giống hệt nhau	**Khớp động**	Pit-tông - xi lanh trong động cơ ô tô, cửa trượt, ...

LIVEWORKSHEETS