Клас *Прізвище, ім'я*

Тест (частина 2).
Встановіть відповідність між назвою відстані (№) і малюнком (Буква)

№	Назва	Буква	Малюнок
1	Між площинами	А	
2	Між паралельними прямими	Б	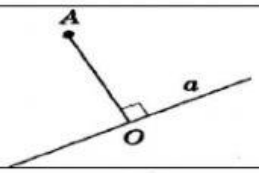
3	Між точками	В	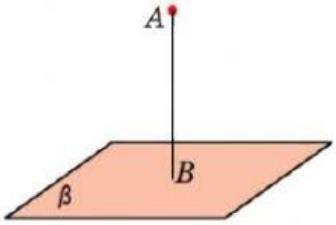
4	Між мимобіжними прямими	Г	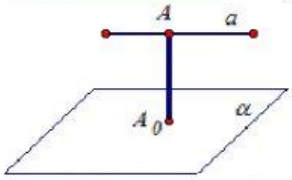
5	Між точкою і площиною	Д	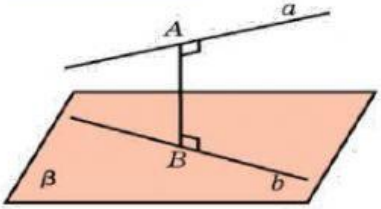
6	Між прямою і площиною	Е	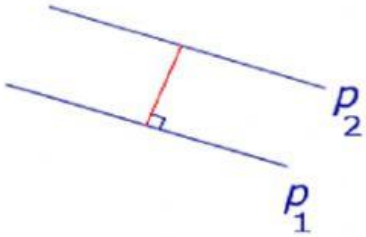
7	Між точкою і прямою	Є	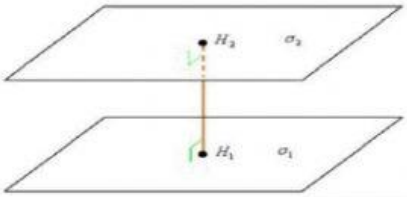

Відповіді:

1	2	3	4	5	6	7

LIVEWORKSHEETS